Taller

El reloj y sus partes

a. Coloca los números y las manecillas al reloj correctamnte.

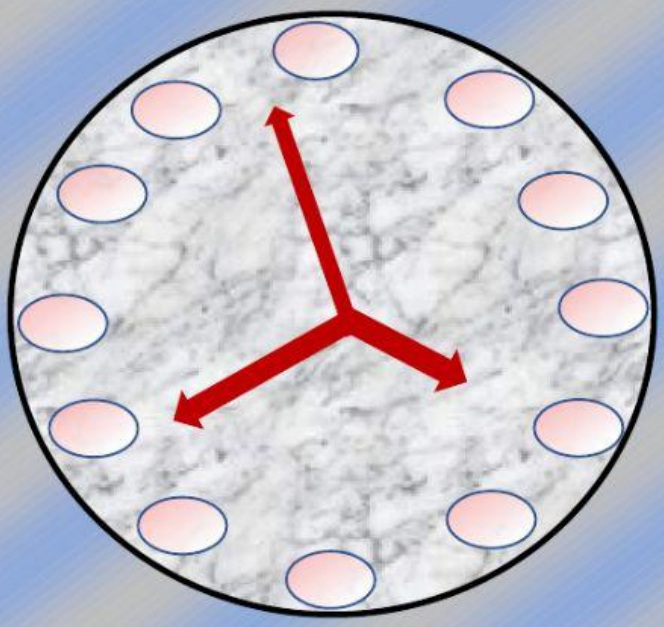

6 8 10

4 3 2

11 5 9

12 1 7

segundero

Horario

minutero

b. Pareo de letras: Coloca la letra que acompaña a cada hora y colócalas en la línea de los minutos.

a. 8	_____ 35
b. 12	_____ 15
c. 3	_____ 55
ch. 10	_____ 20
d. 1	_____ 60
e. 4	_____ 30
f. 7	_____ 5
g. 11	_____ 10
h. 6	_____ 45
i. 2	_____ 50
j. 9	_____ 25
k. 5	_____ 40

c. **Coloca la hora que indica cada reloj.**



d. **Escribe la hora que indica cada reloj**

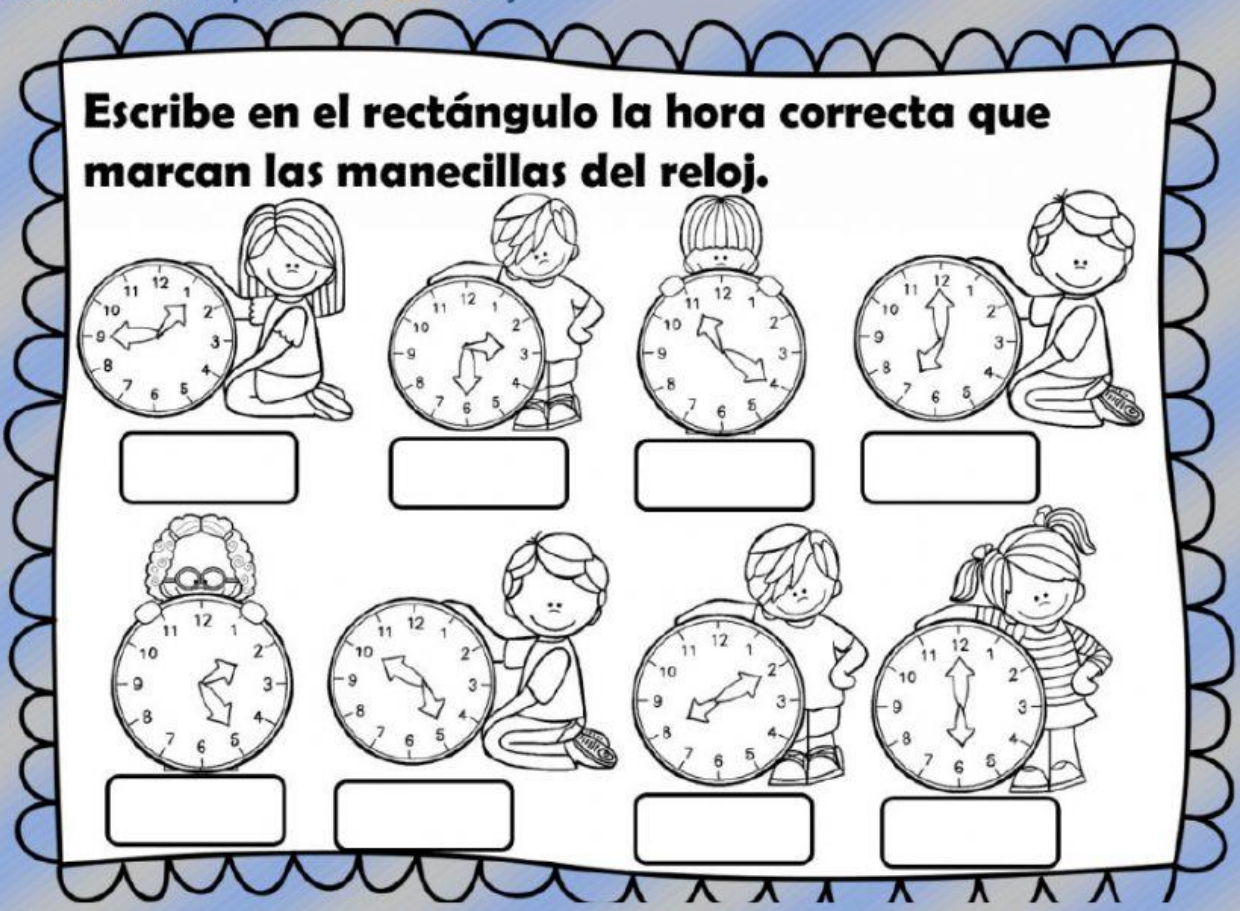

e. **Relacione la hora con su lectura.**

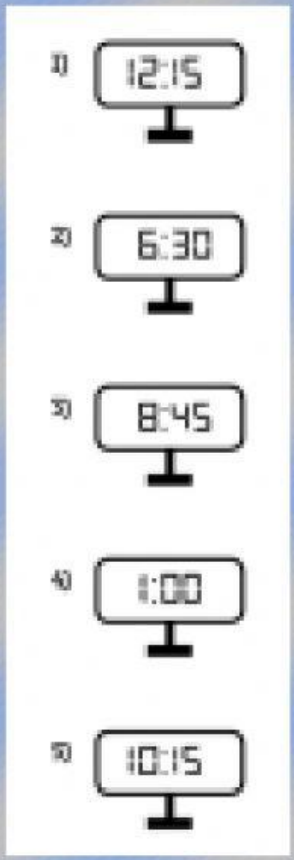

Una en punto

Un cuarto para las 9

Diez y cuarto

Un cuarto para las 9

Seis y media