INSTITUTO MELVIN JONES POPAYÁN
Tema: Números y orden hasta 99
Actividad en Clase

1. **Cuenta los grupos de fichas y completa.**



_____ D y _____ U

El número es _____

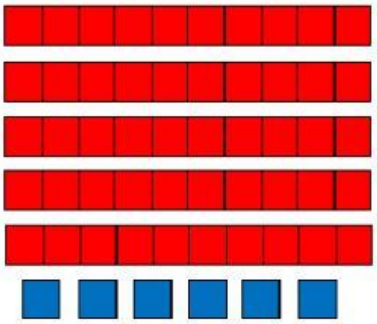

_____ D y _____ U

El número es _____

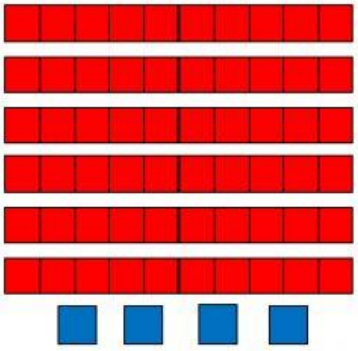

_____ D y _____ U

El número es _____

2. **Lee y selecciona la imagen que cumple las condiciones dadas.**

Hay menos de 35 panes
Hay más de 29 panes

3. **Escribe en los pétalos de color azul números mayores y en los verdes números menores que el número del centro.**



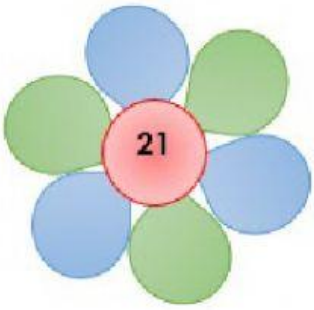



4. **Observa los números de las balotas y escribe con ellos todos los números de dos cifras.**

_____, _____, _____, _____, _____, _____.

Escribe los números de menor a mayor

_____ < _____ < _____ < _____ < _____ < _____

Éxitos.