٨) اكتب الأعداد المفقودة في كل شكل من الأشكال التالية بحيث يمثل كل عدد مجموع العددين في الصف الموجود أدناه:

(أ)

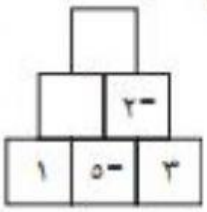

(ب)

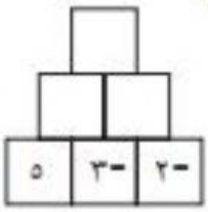

(ج)

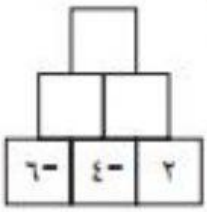

(د)

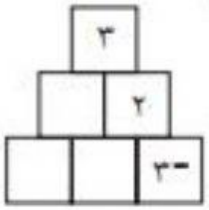

(هـ)

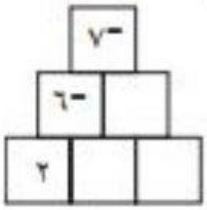

٩) أكمل الجدول التالي:

		العدد الثاني				
	–	-٤	-٢	٠	٢	٤
العدد الأوّل	٤	٨				
	٢					
	٠					
	-٢					
	-٤				-٦	

١٠) أوجد ناتج ما يلي:

(أ) ٥ + (-٣)

(ب) -٤ - (-٥)

(ج) -٢ + ١٨

(د) -١٠ - ٤

١١) أوجد الأعداد المفقودة فيما يلي:

(أ) □ - (-٥) = -٢

(ب) -٢ + □ = ٢

(ج) □ - ٤ = -٣