السؤال الأول

ضع دائرة حول رمز الإجابة الصحيحة فيما يأتي:

1- كم عدد حبات الكعك الموجودة إجمالاً؟



a) 5 b) 4 c) 9

2- أوجد ناتج جمع

7 + 0 =.....

a) 7 b) 0 c) 3

3-أوجد ناتج جمع

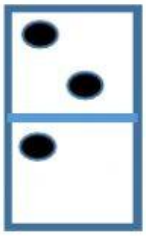

$$\begin{array}{r} 2 \\ +\ 3 \\ \hline \square \end{array}$$

a) 1 b) 2 c) 5

4- أي مما يلي ناتج جمعه يساوي 8؟

a) 8 + 2 b) 0 + 3 c) 3 + 5

10أي مما يلي تكون العدد عشرة؟



a) 2 + 4 b) 5 + 5 c) 1 + 7

6- أختر الطريقة المناسبة لتكوين العدد 5

a) 1 + 3 b) 2 + 3 c) 5 + 2

7-أوجد الجزء الناقص من العدد 10؟

جزء	جزء
7	
الكل	
10	

a) 6 b) 2 c) 3

8- اختر الجملة الطرح العددية الصحيحة ؟

a) 4 - 1 =3 b) 3 - 3 =0 c) 9 – 4=5

9-ما الفرق في جملة الطرح 7 - 2 =..... ؟

a) 5 b) 7 c) 3

11-يرى محمد 8 ببغاوات على غصن الشجرة. طار 3 منهما بعيدًا . فكم عدد الببغاوات المتبقية على الغصن؟

a) 5 ببغاوات b) 1 ببغاوات c) 3ببغاوات

12-أي من الأشكال الآتية يوضح المضاعفات ؟

13-أي من الأشكال الآتية يوضح المضاعفات ناقص 1؟

14- أي من الحدود الجمعية لها مجموع 5 + 2 =..... ؟

a) 2 + 4 b) 2 + 5 c) 3 + 1

14- جمعت مريم 4 برتقالات وجمعت فاطمة برتقالات تزيد بواحد عما جمعته مريم.
ماعدد البرتقالات التي جمعتها فاطمة. ؟

a) 5 b) 7 c) 3

15- عد مجموعة الفلسات؟

a) 17 b) 11 c) 14

16- أي من عبارات الطرح الآتية خطأ؟

a) 7 - 1 =3 b) 2 - 2 =0 c) 9 – 4=3

17- أي من عبارات الجمع الآتية صحيحة؟

a) 2 + 3 =5 b) 1 + 3=2 c) 9 + 2=3

18- أوجد ناتج جمع 3 + 3 + 2 =.....

a) 5 b) 7 c) 8

19- أي جمل الطرح توضح

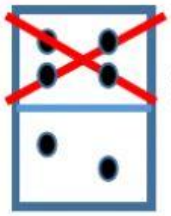

؟

a) $\begin{array}{r} 6 \\ -\ 4 \\ \hline 2 \end{array}$ b) $\begin{array}{r} 8 \\ -\ 5 \\ \hline 3 \end{array}$ c) $\begin{array}{r} 5 \\ -\ 4 \\ \hline 1 \end{array}$

السؤال الثاني

أوجد الناتج في كل مما يأتي:

20) 7 + 5 = _____

21) 6 + 4 + 4 = _____

22) 10 - 4 = _____

أكتب المجموع باستخدام خط الأعداد أدناه

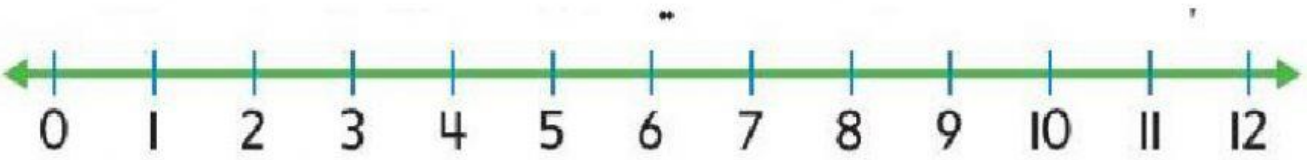

23) 3 + 5 = ...

24) 9 + 2 = ...

25-أكتب حقائق الطرح المترابطة

جزء	جزء
2	3
الكل	
5	

3 + 6 =9

_____+_____=_____

_____-_____=_____

_____-_____=_____

_____-_____=_____

26-أكتب جملة طرح عددية

27-أكتب جملة الجمع عددية

28-كون عشرة للجمع

8	10
+ 5	+ ☐
☐	☐