1. Elige la respuesta correcta:

a) Si dos rectas por mucho que se prolonguen nunca se cortan, se llaman

b) Si dos rectas al cortarse, forman cuatro ángulos iguales se llaman rectas

c) Si dos rectas se cortan pero no forman cuatro ángulos iguales son rectas

2. Observa las rectas y escribe paralelas, oblicuas o perpendiculares según corresponda:

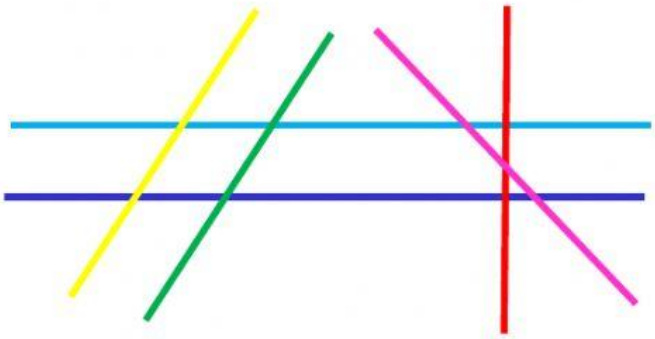

- ✓ La recta **roja** y la **azul** son.....
- ✓ La recta **amarilla** y **verde** son.....
- ✓ La recta **verde** y la **celeste** son.....
- ✓ La recta **rosa** y la **azul** son.....
- ✓ La recta **azul** y la **celeste** son.....
- ✓ La recta **celeste** y la **roja** son.....

3. Coloca cada nombre en su lugar: lado – vértice - amplitud

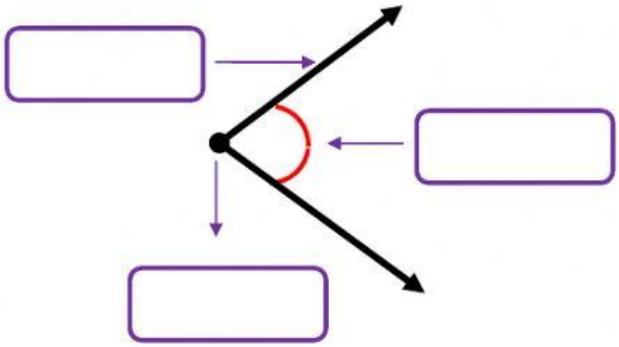
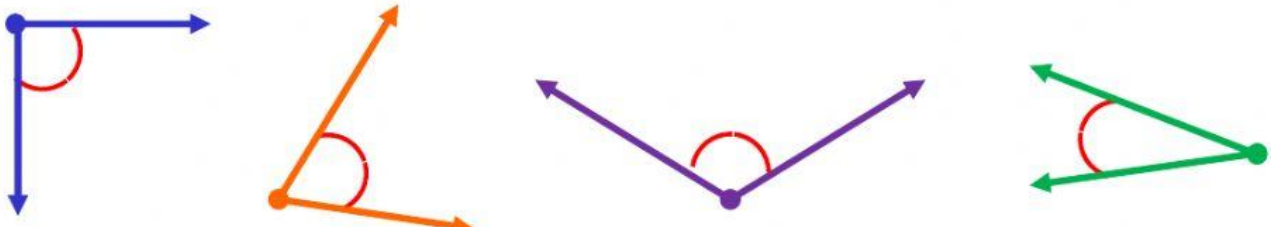
4. Clasifica estos ángulos: