EJERICIOS DEL PERÍMETRO: TRAPECIO, ROMBO Y CÍRCULO

Pon en práctica los aprendizajes de la segunda sesión del perímetro y resuelve los siguientes ejercicios, escribiendo dentro del recuadro el perímetro de la figura.

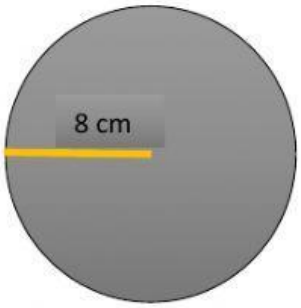

PERÍMETRO:

PERÍMETRO:



PERÍMETRO:

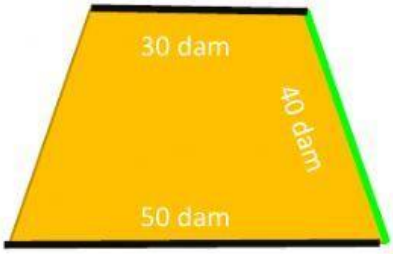

PERÍMETRO:

PERÍMETRO:

PERÍMETRO:

Resuelve el siguiente problema:

Carlos quiere cambiar la lona lateral de su alberca circular. Si el radio de la alberca es de 2.6 m ¿Cuántos metros de lona necesita?

R.-Necesita _____ metros de lona.