Όνομα: _____

1. **Επίλεξε τη σωστή απάντηση πατώντας πάνω ή κυκλώνοντάς**

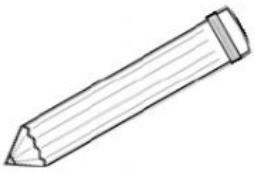

**Ο αριθμός δύο χιλιάδες επτά είναι**

2.700 2.007 2.070 2.087

**Ποιος αριθμός είναι μεγαλύτερος κατά 200 από το 2.500**

2.800 2.900 2.600 2.700

**2. Γράψε τους αριθμούς με αριθμητικό σύμβολο:**

Δύο χιλιάδες οκτακόσια εβδομήντα τέσσερα .....

| | |
|---|---|
| Τρεις χιλιάδες δεκαεφτά | ..... |
| Τρεις χιλιάδες πεντακόσια έξι | ..... |
| Τρεις χιλιάδες εξήντα τρία | ..... |

**Γράφω ποιον αριθμό δείχνει ο άβακας στα κουτάκια.**

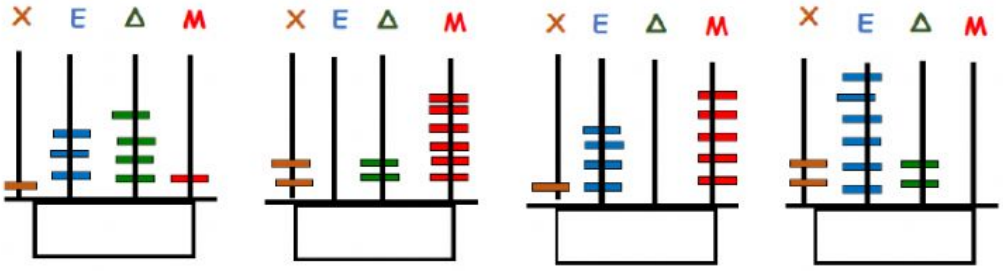


**Αναλύω τον κάθε αριθμό σε άθροισμα, όπως το παράδειγμα.**

2.46 9 = 2.000 + 400 + 60 + 9

1.921 = _____

2.005 = _____

1.800 = _____

2.226 = _____



**8. Γράφω τον προηγούμενο και τον επόμενο αριθμό σε καθέναν από τους παρακάτω αριθμούς.**

| | | |
|---|---|---|
| _____ 1.600 _____ | _____ 1.478 _____ | _____ 2.500 _____ |
| _____ 2.900 _____ | _____ 1.679 _____ | _____ 1.990 _____ |

☐ **Βρίσκω τον μεγαλύτερο και τον μικρότερο αριθμό χρησιμοποιώντας τα παρακάτω ψηφία.**

Μικρότερος αριθμός: _____

**1** **5** **8** **2**

Μεγαλύτερος αριθμός: _____

**Βρίσκω τον αριθμό που προκύπτει από κάθε άθροισμα.**

2.000 + 100 + 5 = **2.105**

1.000 + 500 + 90 + 4 = _____

2.000 + 20 + 3 = _____

1.000 + 700 + 6 = _____

2.000 + 300 + 50 = _____

**Να βάλεις το σωστό σύμβολο ανισότητας ή ισότητας**

1.890..... 1.980 2.003.....2.030 2.600.....2.060

2.750..... 2.000+700+50 1.785.....1.755 2.901.....2.900

**Βρίσκω το μήκος κάθε ράβδου με τον χάρακα που μου δίνεται. Προσέχω πολύ τον χάρακα!!! Γράφω και σε εκατοστά και σε χιλιοστά!!!**

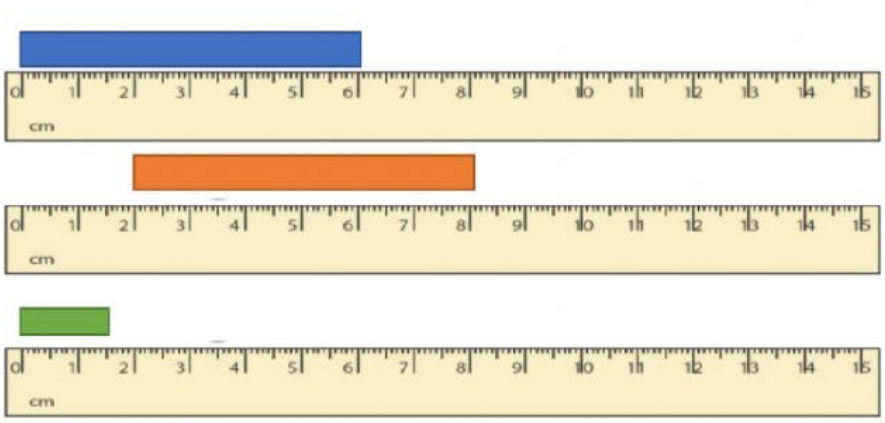

_____ εκατοστά

_____ εκατοστά

_____ χιλιοστά

..... εκατοστά