PIRAMIDEAREN AZALERA

GOGORATU:

Piramide baten azalera kalkulatzeko 3 pauso jarraitzen dira:

1. Aldeko triangeluen azalera kalkulatzen da.
2. Oinarriaren azalera kalkulatzen da.
3. Aldeko triangeluen eta oinarriaren azalerak batzen dira.

Kalkulatu piramidearen azalera, urratsez-urrats:

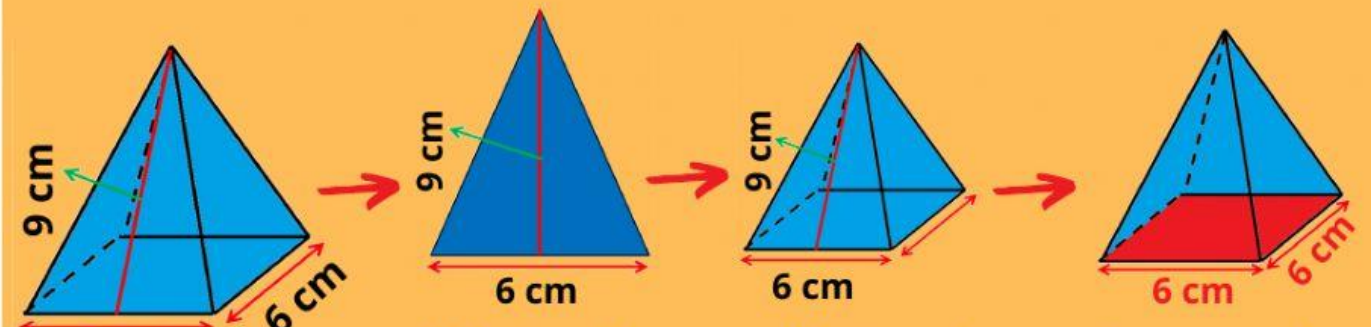

Aldeko triangelu baten azalera da: _____ cm^2

Alboko triangelu guztien azalera da: _____ cm^2

Oinarriaren azalera da: _____ cm^2

Piramidearen azalera: _____ cm^2

Kalkulatu piramidearen azalera, urratsez-urrats:

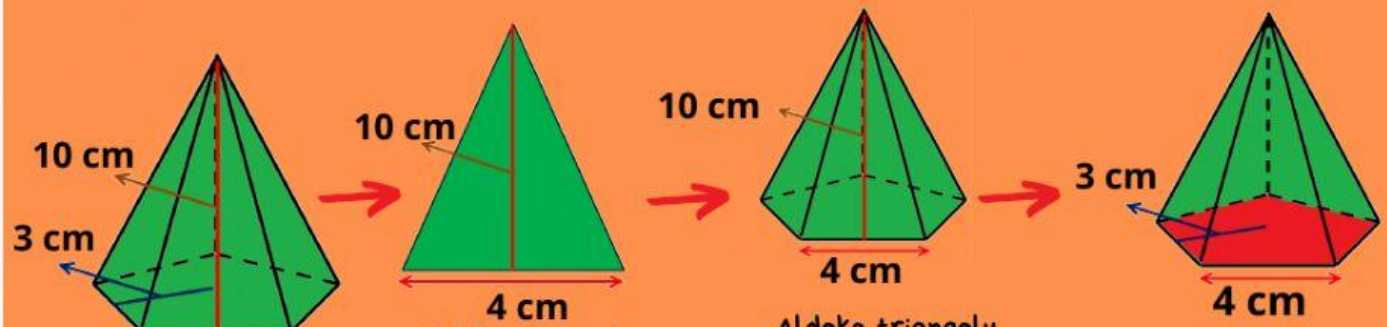

Aldeko triangelu baten azalera da: _____ cm^2

Aldeko triangelu guztien azalera da: _____ cm^2

Oinarriaren azalera da: _____ cm^2

Piramidearen azalera: _____ cm^2

Kalkulatu piramidearen azalera:

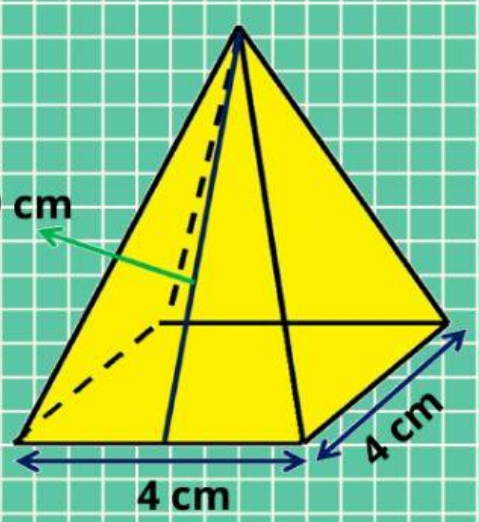

Piramidearen azalera: _____ cm^2

Kalkulatu piramidearen azalera:

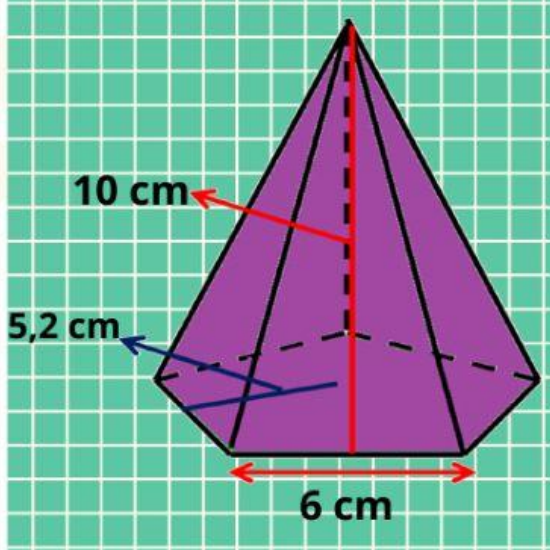

Piramidearen azalera: _____ cm^2