SOAL LATIHAN

Silanglah huruf a, b, c, atau d di depan jawaban yang benar!

1. Contoh segi banyak adalah ....

a.

b.

c.

d. 

10. Belah ketupat merupakan segi banyak tidak beraturan karena ....
    a. sisi-sisinya sama panjang
    b. sudut-sudutnya sama besar
    c. sudut-sudutnya tidak sama besar
    d. sisi-sisinya tidak sama panjang

2. Contoh bukan segi banyak adalah ....

a.

b. 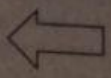

c. 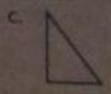

d. 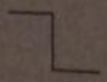

3. Bangun yang tidak termasuk segi banyak beraturan adalah ....
    a. segitiga sama sisi
    b. persegi
    c. pentagon
    d. persegi panjang
4. Contoh segi banyak beraturan adalah ....
    a. segitiga sama kaki
    b. persegi panjang
    c. segitiga sama sisi
    d. trapesium
5. Segi banyak dibedakan menjadi ....
    a. segi banyak beraturan dan segi banyak tidak beraturan
    b. segi banyak lurus dan segi banyak lengkung
    c. segitiga dan segi enam
    d. segitiga dan persegi
6. Ciri segi banyak beraturan adalah ....
    a. sisi-sisi tidak sama
    b. sudut-sudut tidak sama
    c. sisi-sisi sama
    d. bentuknya dapat cembung dan cekung
7. Berikut ini ciri segi banyak tidak beraturan, *kecuali* ....
    a. sisi-sisi tidak sama
    b. sudut-sudut tidak sama
    c. sisi-sisi sama
    d. bentuknya dapat cembung dan cekung
8. Contoh segi banyak beraturan adalah ....

a.

b. 

c. 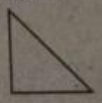

d. 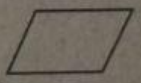

9. Contoh segi banyak tidak beraturan adalah ....

a.

b.

c.

d.