PEMBELAJARAN JARAK JAUH KELAS VI
SD ANGKASA 5
TAHUN PELAJARAN 2020/2021

Mata Pelajaran	: MATEMATIKA	Nama	:
Hari/Tanggal	:	Kelas	: VI

1. Sebuah roda diketahui memiliki diameter 105 cm. Roda tersebut berputar sebanyak 8 kali. Jarak yang ditempuh roda tersebut adalah ….
   a. 3,3 meter
   b. 12,3 meter
   c. 24,6 meter
   d. 26,4 meter

2. Perhatikan gambar di bawah!

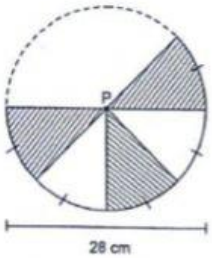

Luas bagian bangun yang diarsir adalah ….
   a. 924 cm^2
   b. 462 cm^2
   c. 369,6 cm^2
   d. 231 cm^2

3. Perhatikan gambar berikut!

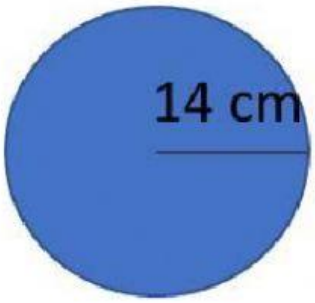

Keliling bangun datar seperti gambar adalah...
   a. 616 cm
   b. 154 cm
   c. 88 cm
   d. 44 cm

4. Luas bangun di bawah ini adalah ....

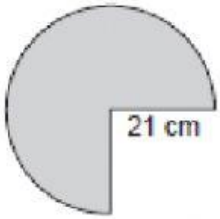

   a. 346,5 cm^2
   b. 693 cm^2
   c. 1.039,5 cm^2
   d. 1.386 cm^2

5. Sebuah taman berbentuk lingkaran berdiameter 28 m, seperempat bagian taman ditanami bunga Lavender dan sisanya ditanami sirih kuning. Luas taman yang ditanami sirih kuning adalah ...
   a. 462 m^2
   b. 446 m^2
   c. 526 m^2
   d. 555 m^2