LICEO CAMPESTRE SEMILLITAS
BIMESTRAL CUARTO PERIODO
GEOMETRÍA QUINTO

1. COLOCA LAS PIEZAS DEL TANGRAM SEGÚN CORRESPONDA.

2. A PARTIR DE LA CONGRUENCIA DE TRIÁNGULOS, UNE EL CONCEPTO CON SU RESPECTIVO CRITERIO.

CRITERIO	Son congruentes cuando	EJEMPLO
(L,L,L)	Sus tres lados correspondientes son proporcionales es decir: $<A = A_1$, $<B = B_1$, $C = C_1$	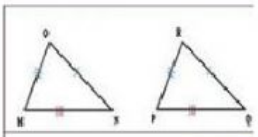
(A,L,A)	Si dos ángulos y el lado Común entre ellos es igual A los correspondientes	
(L,A,L)	Dos lados de un triangulo y el ángulo comprendido entre esos lados son iguales a sus correspondientes.	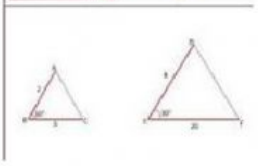

3. COMPLETE EL MAPA

Unidades de medida
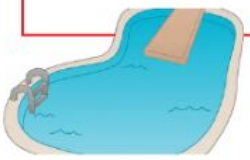
- VOLUMEN
- CAPACIDAD
- MASA
- TIEMPO