ATIVIDADE PARA 2º ANOS – SEMANA DE 14 A 19 DE DEZEMBRO.

1) COMPLETE A SEQUÊNCIA NUMÉRICA DE 0 À 100.

0	1	2	3	4	5	6	7	8	9
10	11			14		16		18	
	21	22	23		25		27		29
30			33	34	35		37	38	
40	41			44			47	48	
		52	53			56			59
	61	62	63						
70	71				75		77	78	79
		82	83			86	87		89
90			93		95			98	

2) LIGUE O NUMERAL AO SUA QUANTIDADE: (REPRESENTADA PELO MATERIAL DOURADO)

53

74

99

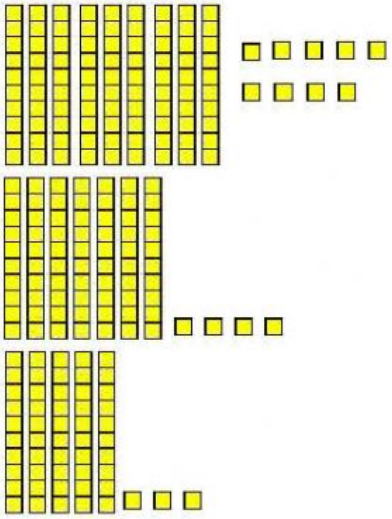

3) MARQUE O NÚMERO MAIOR?

20 OU 17
60 OU 100
52 OU 84

4) FAÇA UM X SOBRE O NÚMERO MENOR?

89 OU 58
90 OU 99
10 OU 9

5) ESCREVA OS NÚMEROS EM ORDEM CRESCENTE:

34 – 80 – 51 – 93 – 15 – 20

_____

6) ESCREVA OS NÚMEROS EM ORDEM DECRESCENTE:

13 – 100 – 28 – 43 – 23 – 98

_____

7) VAMOS RESOLVER O QUE SE PEDE:

QUANTAS FRUTAS TEM?

a) NA PRIMEIRA CESTA: ☐

b) NA SEGUNDA CESTA: ☐

c) NA TERCEIRA CESTA: ☐

NA PRIMEIRA CESTA TEM:

NA SEGUNDA CESTA TEM:

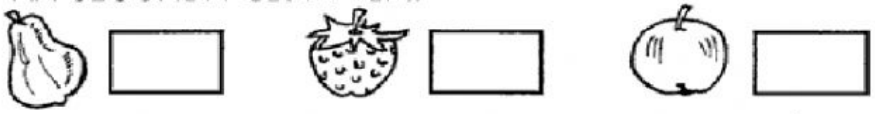

NA TERCEIRA CESTA TEM:

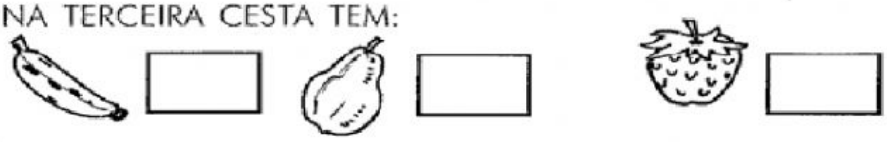

AO TODO, AS CESTAS TÊM: ☐ FRUTAS.

8) ARME E RESOLVA AS ADIÇÕES:

a) 24 + 33 = _____

b) 217 + 21 = _____

C	D	U

C	D	U

9) ARME E RESOLVA AS SUBTRAÇÕES:

a) 59 – 33 = _____

b) 288 – 145 = _____

C	D	U

C	D	U

10) ESCREVA OS NÚMEROS POR EXTENSO:

a) 57 - _____

b) 238 - _____

c) 26 - _____

d) 143 - _____