Colegio San Alberto Hurtado
Sociedad
2020

Evaluación Recuperativa: Ubicación Espacial

Realiza cada actividad según tus conocimientos. Pincha la opción correcta

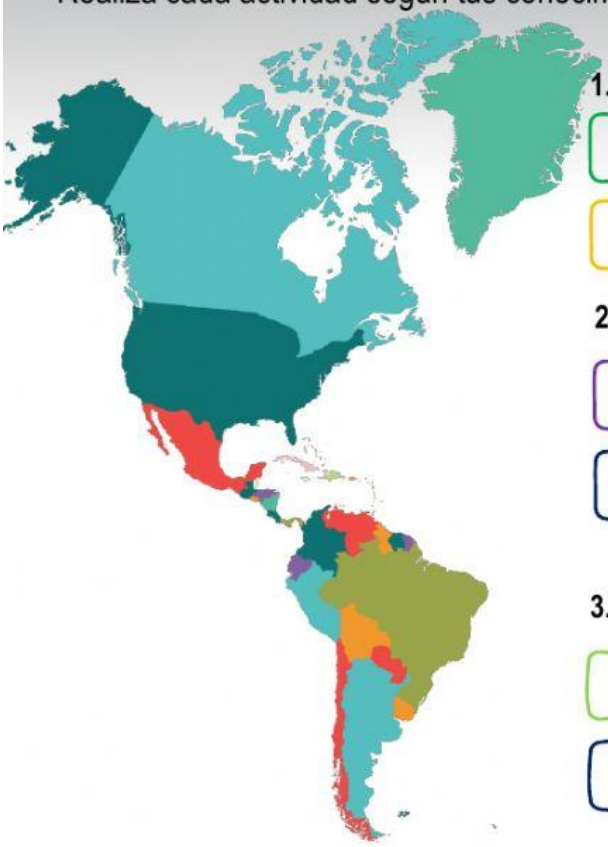

1. Nuestro continente se llama:

- EUROPA
- AMÉRICA

2. Nuestro país se llama:

- CHILE
- ARGENTINA

3. Los países vecinos de Chile son

- Argentina, Perú y Bolivia
- Paraguay, Ecuador, Bolivia

4. El océano que baña nuestras costas se conoce y se encuentra a la IZQUIERDA:

- Pacífico
- Atlántico

5. La cordillera más importante de Chile y que se encuentra a la DERECHA de nuestro país:

- La costa
- Los Andes

6. Arrastra cada punto cardinal en su posición en la rosa de los vientos

Norte

Oeste

Sur

Este



7. Une cada Zona Natural a su posición correcta en el mapa de Chile

ZONA SUR

ZONA NORTE

ZONA CENTRAL

ZONA AUTRAL

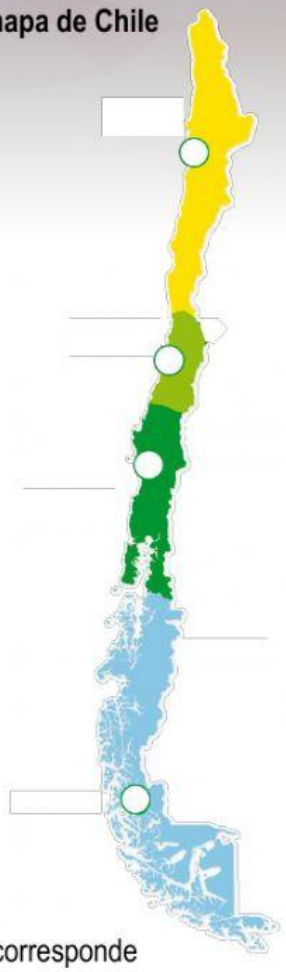

8. Observa cada paisaje y une con una línea a la zona que corresponde



ZONA AUTRAL

ZONA NORTE

ZONA SUR

ZONA CENTRAL