一年级科学

《地球》

观看视频以认识地球表面的各种地形：

完成线上练习：

练习一：根据地形，将正确的名称拖曳至空格里。

河	海	山丘	山谷
湖	池塘	海滩	高山

1）_____

2）_____

3）_____

4）_____

5）_____

6）_____

7）_____

8）_____

练习二：将正确的地形名称与图片连在一起：

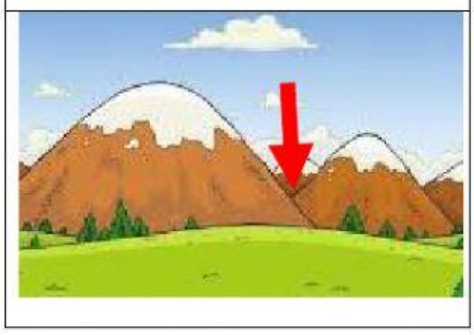

河

高山

海

山丘

池塘

山谷

湖

海滩



练习三：点击正确的答案：

1）两座山之间的地方叫做（ 高山 / 海滩 / 山谷 ）。
2）山谷之间有（ 小溪 / 海 / 海滩 ）。
3）山河的水流不出就会形成（ 海 / 湖 / 山丘 ）。
4）小河和大河都比（ 海 / 高山 / 小溪 ）大。
5）河水最后会流入（ 山谷 / 海 / 山丘 ）。

练习四：点击正确的答案：

（ 池塘 / 河 ）

（ 海 / 湖 ）

（ 海滩 / 山丘 ）



（ 山谷 / 湖 ）



（ 高山 / 山丘 ）



（ 海滩 / 山谷 ）