LAURA JAMART ÁLVAREZ

LOS POLÍGONOS

¿Cuántos polígonos ves en cada caja?

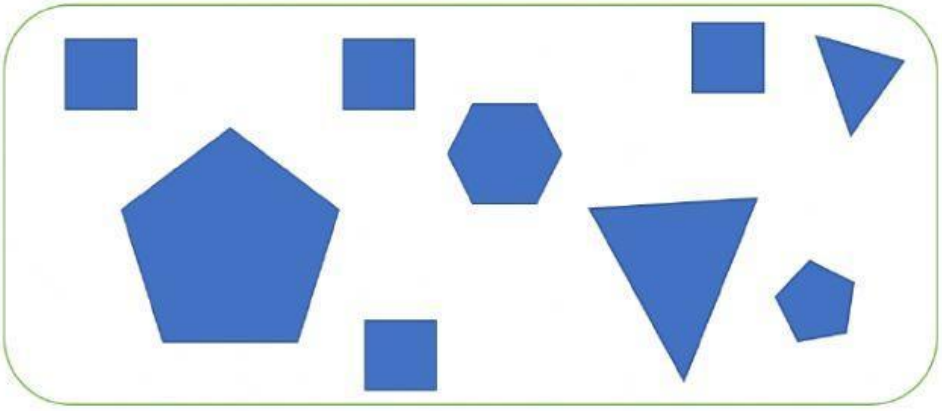

CUADRADOS ..... TRIÁNGULOS .....

PENTÁGONOS ..... HEXÁGONOS .....

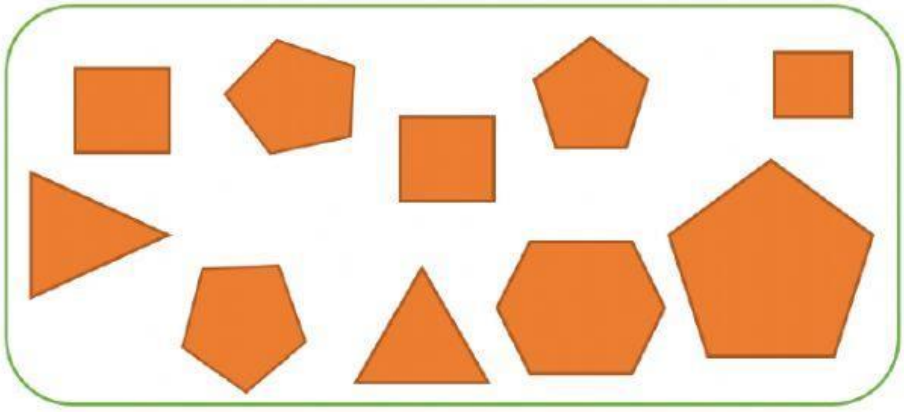

CUADRADOS ..... TRIÁNGULOS .....

PENTÁGONOS ..... HEXÁGONOS .....

Escribe cuántos lados, vértices y ángulos tiene cada polígono y escribe su nombre.



LADOS _____ VÉRTICES _____

ÁNGULOS _____ NOMBRE _____

LADOS _____ VÉRTICES _____

ÁNGULOS _____ NOMBRE _____

LAURA JAMART ÁLVAREZ



LADOS _____ VÉRTICES _____

ÁNGULOS _____ NOMBRE _____



LADOS _____ VÉRTICES _____

ÁNGULOS _____ NOMBRE _____