Patrones basados en restas

1. Descubro el patrón numérico y completo la serie.

(No se olvide escribir el patrón con el signo correspondiente, por ejemplo: +8)

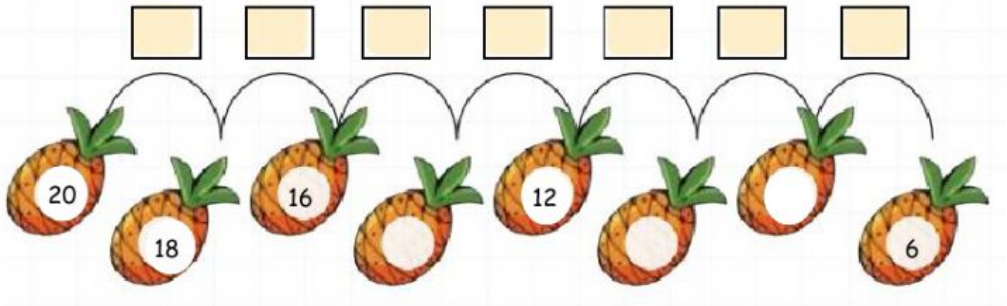

2. Escribo los números de la secuencia anterior desde el 18 hacia atrás.

18 - - - - - -

Operadores de adición

3. Escribo el número que falta para que cumple la operación

12	+		=	17
13	+	7	=	

4. Uno con líneas según el operador planteado.

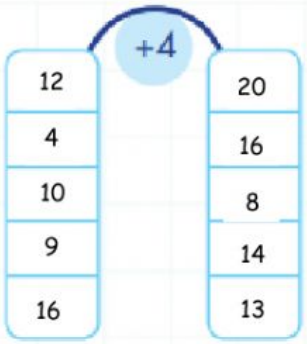

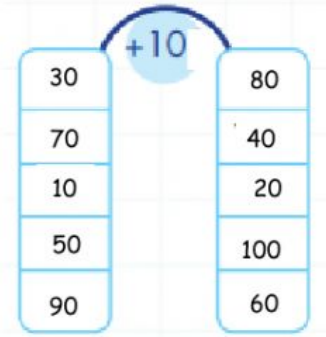

5. Completo según el operador planteado

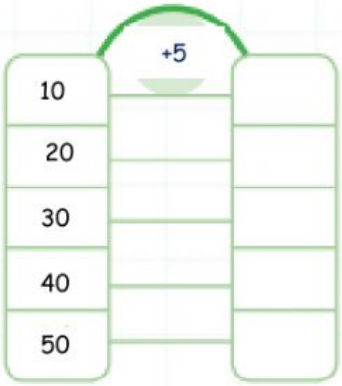

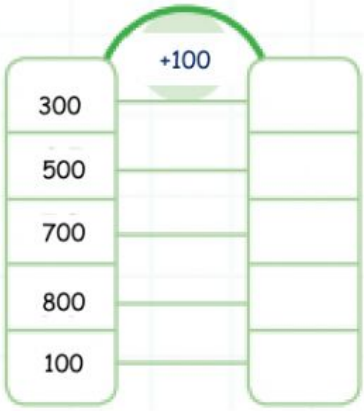

6. Resolver el siguiente problema y seleccionar la respuesta correcta.

Si hay 12 perros bóxer y 5 pastores, ¿cuántos perros hay en total?

¿Qué operador utilizaste para determinar ese valor? _____