Ejercicios de evaluación del primer periodo 2° "B"
J.N. Juventino Rosas, Santiago Papasquiaro, Dgo.

Pensamiento matemático

Nombre del alumno: _____

1. En esta imagen selecciona los números que aparecen.



2. ¿Cuántos patos tiene mamá pata?

a) 5 patos
b) 1 pato
c) 3 patos
d) 2 patos

3. Selecciona el numero correcto en cada colección



4. Observa la siguiente lamina y contesta las preguntas arrastrando la respuesta correcta.



¿Cuántas jirafas hay? ☐

¿Cuántas cebras hay? ☐

¿Cuántos Suricatos hay? ☐

4 **3** **5**

5. Ordena las actividades que haces durante el día arrastrándolas al número que corresponda.