الْوَحْدَةُ 4

الْكُسورُ

أَسْتَعِدُّ لِدِراسَةِ الْوَحْدَةِ

أَكْتُبُ الْكَسْرَ الَّذي يُمَثِّلُ الْأَجْزاءَ الْمُظَلَّلَةَ في كُلِّ شَكْلٍ مِمّا يَأْتي:

1

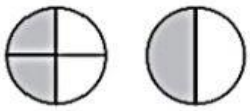

$\frac{\square}{\square} = \frac{\square}{\square}$

2



$\frac{\square}{\square} = \frac{\square}{\square}$

3 أَكْتُبُ الْكَسْرَ غَيْرَ الْفِعْلِيِّ وَالْعَدَدَ الْكَسْرِيَّ اللَّذَيْنِ يُمَثِّلُهُما كُلُّ نَموذَجٍ مِمّا يَأْتي:

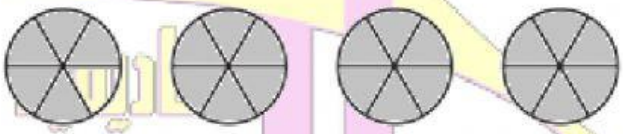

$\frac{\square}{\square} = \frac{\square}{\square}$

أَجِدُ ناتِجَ جَمْعِ الْكَسْرَيْنِ في كُلٍّ مِمّا يَأْتي:

4

$\frac{3}{10} + \frac{4}{10} = \frac{\square}{\square}$

5

$\frac{1}{5} + \frac{2}{5} = \frac{\square}{\square}$

6 أُعَبِّرُ عَنِ النَّموذَجِ بِجُمْلَةِ طَرْحٍ، ثُمَّ أَجِدُ النّاتِجَ.

$\frac{\square}{\square} - \frac{\square}{\square} = \frac{\square}{\square}$