Colegio La Estrellita
Nuestro Compromiso es Educar con Calidad Humana
Preescolar y Básica Primaria
Resolución Oficial No.004110 de 2000

VALORACIÓN IV PERIODO ACADÈMICO

Asignatura: Geometría.
Profesora: Laura Jimena Trujillo Nieva.

Grado: Cuarto

Área y Perímetro de Figuras planas.

Recuerda: El perímetro es la suma de las medidas de sus lados; el área de un rectángulo es multiplicar su base por altura.

1. El siguiente dibujo corresponde al plano de un parque. Las zonas marrones representan caminos para poder pasear y las zonas verdes, jardines. Calcula el perímetro y área del parque.

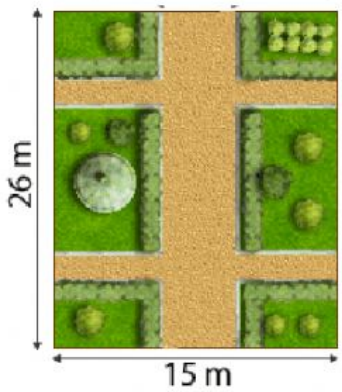

Perímetro:

P=

P=

Área:

A =

A =

2. Indica el área de una mesa rectangular que mide 60cm de base y 180 cm de altura.

Perímetro:

P=

P=

Área:

A =

A =

Recuerda: El perímetro es la suma de las medidas de sus lados; el área de un cuadrado es multiplicar la medida de sus lados. Lado x Lado

3. Calcula el perímetro y área de los siguientes cuadrados.

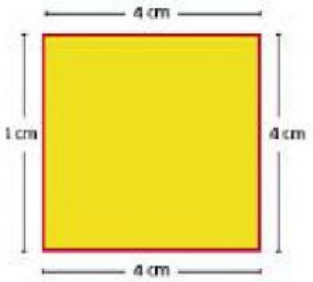

Perímetro:

P=

P=

Área:

A =

A =

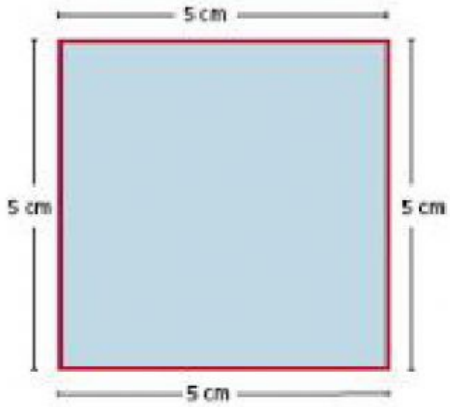

Perímetro:

P=

P=

Área:

A =

A =

CUERPOS GEOMÈTRICOS.

4. Completa el siguiente mapa conceptual.

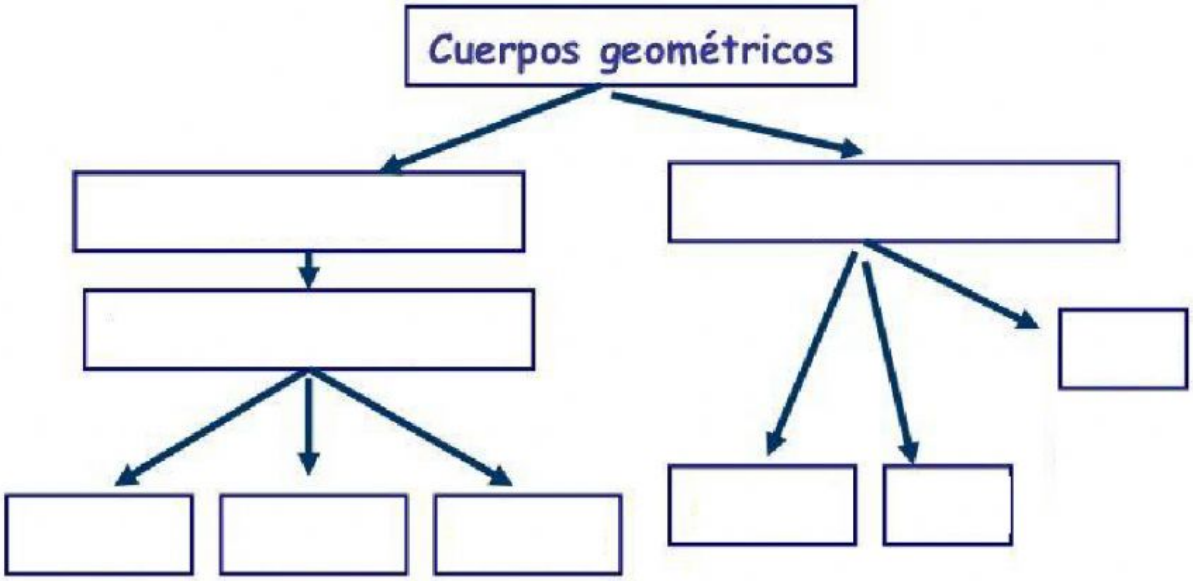

5. Arrastra los cuerpos geométricos con su nombre correspondiente.

Cubo	Esfera	Prisma	Pirámide	Cono	Cilindro

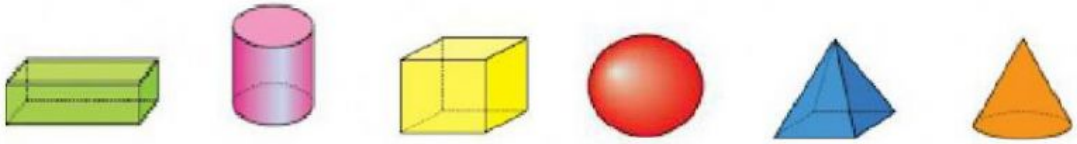

6. Completa la siguiente tabla.

Cuerpo Geométrico	Caras	Vértices	Aristas
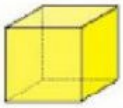			

7. Selecciona si es VERDADERO o FALSO.

a. La pirámide, el prisma y el cubo pertenecen a los poliedros. V F

b. El circulo es un cuerpo redondo. V F

c. La esfera, el cilindro y el cono pertenecen a los cuerpos redondos. V F

d. La esfera y el cubo tienen caras planas. V F

e. El cubo tiene 4 caras laterales. V F