1. **Analizo** la multiplicación y la **represento** en la semirrecta numérica

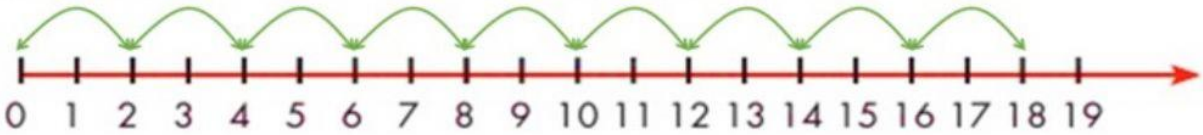

MULTIPLICACIÓN ( )

PRODUCTO O RESULTADO ( )

2. **Observo** los grupos de objetos. Luego, **completo** con las operaciones correspondientes.

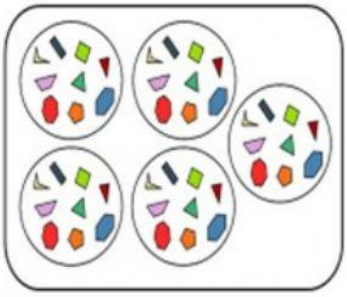

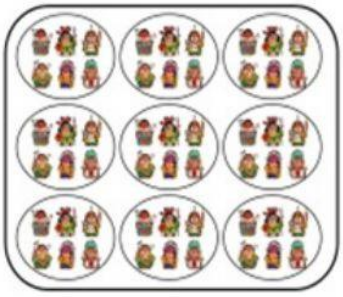

Adiciones ---------- ----------

Multiplicaciones ---------- ----------

PRODUCTO O RESULTADO ---------- ----------

3. **Completo** las multiplicaciones aplicando cualquier método.

65×0		9×5		65×0		8×6		5×6	
8×3		6×9		6×4		2×7		5×4	

2×6		95×1		5×1		10×4		6×6	
8×8		8×9		7×7		10×22		8×7	

4. **Escribo** el valor que falta para que se cumpla la operación.

a. $45 \times \square = 450$

b. $\square \times 24 = 240$

c. $98 \times \square = 9800$

d. $\square \times 1000 = 2000$

e. $78 \times \square = 7800$

f. $265 \times 10 = \square$

g. $57 \times 100 = \square$

h. $5 \times \square = 5000$

i. $33 \times \square = 3300$

j. $1 \times \square = 1000$