PENYELENGGARA PENDIDIKAN YAYASAN SALIB SUCI
SD YOS SUDARSO SUBANG
Jl. Ahmad Yani No. 31 Subang 0260-411434

Matematika Tema 4 Subtema 3 "Mengukur Panjang Benda dengan Satuan Tak Baku"

Kamis, 12 November 2020

KD 3. 8

Berilah tanda centang (√) untuk jawaban yang paling tepat !

1. bagian tubuh yang dapat digunakan untuk mengukur panjang benda adalah . . . .
   a. kepala
   b. tangan
2. gambar yang menunjukkan satuan panjang **jengkal** adalah . . . .
   a. 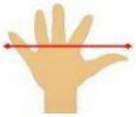
   b.
3. gambar yang menunjukkan satuan panjang **hasta** adalah . . . .
   a. 
   b. 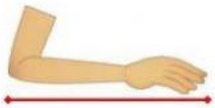
4. gambar yang menunjukkan satuan panjang **depa** adalah . . . .
   a.
   b.
5. *perhatikan gambar di bawah ini !*

   panjang pensil sama dengan . . . . batang korek api.
   a. 5
   b. 6