Colegio Metropolitano
Matemáticas
Sexto Primaria **Encino** **Pino** **Sauce**
Ana Luz Estrada
Jackellinne Serrano

Nombre: _____ Clave: _____

IV Período- Fecha: _____Nota: _____

Hoja de trabajo

Triángulos, ángulos y rectas

Instrucciones Generales: realiza lo que se te indica en cada instrucción, trabaja de forma ordenada y limpia.

Instrucciones: Clasifica cada triángulo según la medida de sus ángulos.

1)

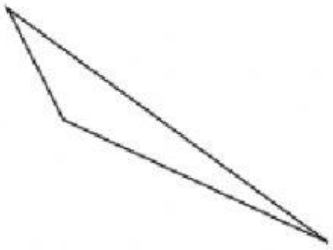

_____

2)

_____

3)

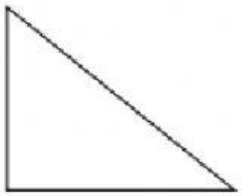

_____

Rectángulo | Obtusángulo | Acutángulo

Instrucciones: Clasifica cada triángulo según la medida de sus lados.

4)

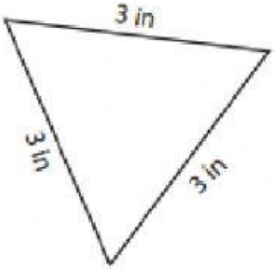

_____

5)

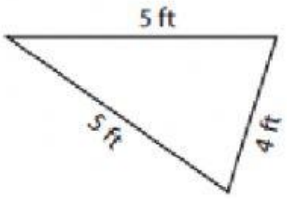

_____

6)

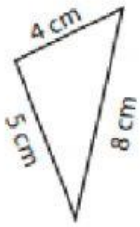

_____

Instrucciones: encuentra el área de cada uno de los siguientes triángulos. Recuerda dejar constancia de todos tus procesos. 15 5c/u

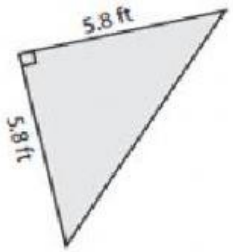

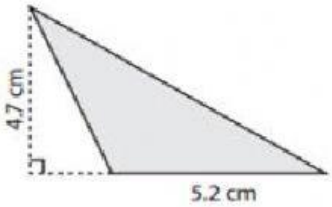

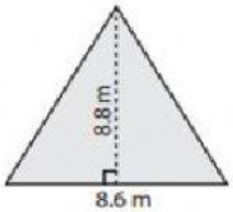

Area = ( ) Area = ( ) Area = ( )

Instrucciones: completa la tabla.

Ángulo	Ángulo complementario	Ángulo suplementario
41°		
		120°
	36°	
21°		
	78°	