UN SÍMBOLO PARA MULTIPLICAR

1. Observa cada grupo de imágenes y únelo con los cálculos que lo represente:

6 + 6	2 + 2 + 2 + 2	3 + 3 + 3	5 + 5 + 5



Cuenta las papas de cada paquete



Cuenta las bananas de cada racimo

Cuenta las uvas de cada racimo



Cuenta las cerezas de cada racimo

3 x 3	2 x 6	5 x 3	2 x 4

2. Indica si los siguientes cálculos son verdadero (V) o falso (F)

- [ ] 5 + 5 = 2 x 5
- [ ] 6 + 6 + 6 + 6 = 6 x 6
- [ ] 4 + 4 + 4 = 3 x 4
- [ ] 2 + 2 + 2 + 2 = 2 x 2
- [ ] 3 + 3 + 3 + 3 + 3 = 5 x 3

<div>Iconos diseñados por Freepik from www.flaticon.es</div>