LEMBAR KERJA PESERTA DIDIK (LKPD)

PERMINTAAN, PENAWARAN DAN HARGA KESEIMBANGAN

Nama :

Kelas :

A. Pilihlah jawaban yang paling tepat !

1. Pernyataan yang benar tentang hukum permintaan adalah ....
   A. kenaikan harga mengakibatkan turunnya jumlah barang yang diminta
   B. kenaikan harga mengakibatkan bertambahnya jumlah barang yang diminta
   C. turunnya harga mengakibatkan bertambahnya jumlah barang yang ditawarkan
   D. turunnya harga mengakibatkan berkurangnya jumlah barang yang diminta
   E. kenaikan harga mengakibatkan adanya excess demand
2. Hukum permintaan ***tidak berlaku*** untuk barang berikut ini, seperti ....
   A. telur
   B. daging
   C. minyak goreng
   D. karcis bioskop
   E. mobil mewah
3. Jumlah barang yang diminta dengan harga mempunyai hubungan yang berbanding ....
   A. vertikal
   B. horizontal
   C. lurus
   D. searah
   E. terbalik
4. Jumlah barang atau jasa yang akan dibeli pada berbagai tingkat harga, waktu, dan tempat tertentu disebut ....
   A. penawaran
   B. permintaan
   C. hukum permintaan
   D. hukum penawaran
   E. harga pasar
5. Permintaan yang disertai dengan kemampuan membeli, tetapi belum melakukan transaksi disebut permintaan ....
   A. selektif
   B. pasar
   C. efektif
   D. absolut
   E. potensial

B. Tariklah garis pada kotak yang memuat jawaban yang benar !

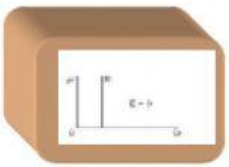









elastis

inelastis

unitary elastisitas

elastis sempurna

inelastis sempurna

C. Letakkan jawaban yang sesuai dari masing-masing soal "Menghitung Elastisitas" di bawah ini !

1. Pada saat harga Rp500,00 jumlah barang yang ditawarkan 40 unit, kemudian harga turun menjadi Rp300,00 jumlah barang yang ditawarkan 32 unit. Maka besar koefisien elastisitas penawarannya adalah

0,6

2. Pada saat harga Rp400,00 jumlah barang yang diminta 30 unit, kemudian harga turun menjadi Rp360,00 jumlah barang yang diminta 60 unit.. Maka besar koefisien elastisitas permintaannya adalah ....

0

3. Pada saat harga barang X Rp 250,00 permintaan 20 unit, harga naik menjadi Rp 350,00 permintaan 25 unit. Maka besar koefisien elastisitas permintaannya adalah....

0,5

4. Awal mulanya, sepasang sandal berharga Rp20.000,00 dan naik menjadi Rp20.200,00, diiringi dengan jumlah penawaran yang naik dari yang semula 10.000 menjadi 10.100. Maka besar koefisien elastisitasnya adalah:

1

5. Pada saat harga Rp 100.000 jumlah permintaan 50 unit. Pada saat harga Rp 120.000 jumlah permintaan 50 unit. Maka besar koefisien elastisitas permintaannya adalah....

10