Recuerda

De dos números enteros, es mayor el que está situado más a la derecha en la recta entera.

1. Completa las rectas enteras. Después, en cada caso, busca los dos números en la recta correspondiente y rodea el mayor.

−2 y +1

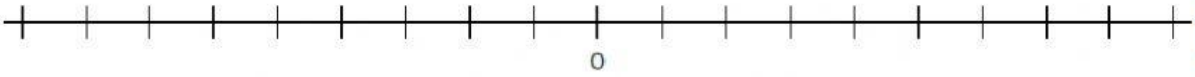

+7 y 0

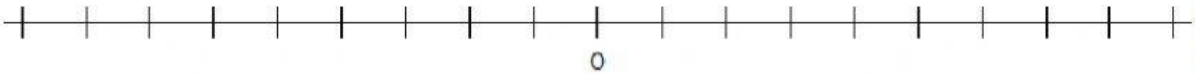

−6 y −2

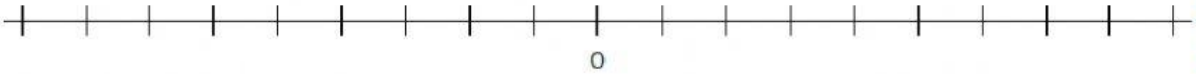

2. Escribe el signo > o < según corresponda.

+4 ◯ −2	−4 ◯ +3	−9 ◯ +1
−5 ◯ −9	−2 ◯ +5	−3 ◯ −8
+6 ◯ +8	−6 ◯ −3	−7 ◯ 0

3. En cada recuadro, rodea con rojo el número mayor y con azul, el número menor.

+4	−1	−5
+3	−6	0

0	−3	−2
−8	+1	−5

liveworksheets.com