UNIDAD EDUCATIVA GIOVANNI BATTISTA MONTINI "PAULO VI"
Año Lectivo 2020 - 2021
EVALUACIÓN DE CIENCIAS NATURALES
PRIMER PARCIAL

NOMBRE: .....GRADO TERCERO: .....

FECHA: 10 /11 /2020

1.- Enumera correctamente el ciclo de vida de las plantas.



2.- ¿Por qué es importante la semilla de una planta?

A.- Porque permiten que nazca una nueva planta.

B.- Porque no da lugar a que nazca una nueva planta.

C.- Porque las semillas son malas.

D.- Porque crecen plantas que no son útiles para el ser humano.

3.- Une el tipo de planta con su descripción.

hierbas	Son plantas con un tronco leñoso, duro, medianamente grueso; las ramas salen del tronco muy cerca del suelo y son pequeñas.
árboles	Son plantas que tienen el tallo herbáceo, fino, flexible y son pequeñas.
arbustos	Tienen un tronco leñoso, duro, grueso y largo. Son las plantas más grandes que existen.

4.- Une con líneas el tipo de planta, y el uso que corresponde.

alimenticias	Adornan las casas y los jardines.
medicinales	Dan materiales para muebles y telas.
industriales	Alivian enfermedades o se usan como medicinas.
ornamentales	Son alimento de los animales y las personas.

5.- Complete los siguientes enunciados con las palabras del recuadro:

adornar	plantas	respirar	medicinales
alimento	frutos	seres vivos	

* Si las plantas de toda la Tierra murieran, también morirían otros _____.

* Las plantas nos sirven de _____ porque nos dan sus _____ para comerlos.

* Las plantas ornamentales sirven para _____ los ambientes y dar alegría.

* Las plantas _____ nos ayudan a aliviarnos de los dolores y curan enfermedades.

* Gracias a las _____ los animales y las personas podemos _____ aire puro.

6.- Complete lo siguiente.

¿Para qué utilizamos una planta medicinal?

a) Para comerlas y adornar.

b) Como medicamento para una enfermedad.

c) Como un amuleto.

7.- Una según corresponda.





8.- Coloque "i" para identificar a los animales invertebrados y la "v " para identificar los animales vertebrados.



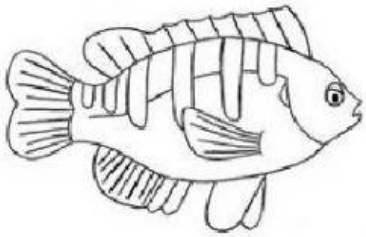

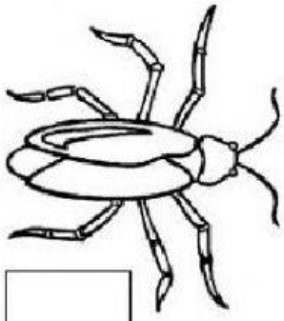





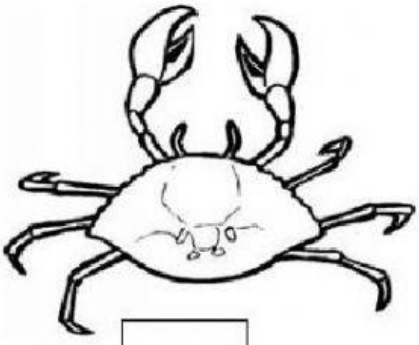



9.- Identifica que nos ofrecen los siguientes animales.
Complete el siguiente cuadro.

La Vaca	El Cerdo	La Gallina

10.- Completa la siguiente tabla identificando 4 ejemplos de animales domésticos y animales salvajes

Animales Domésticos	 Animales Silvestres

11.- Completa la afirmación con las palabras del recuadro.

escapar hábitat animales

Los _____ deben estar en su medio.

Si son sacados de él, tratan de _____

y regresar a su _____.

12.- Escribe el nombre de los hábitats en cada imagen.



13.- Observa las palabras del recuadro y contesta. En que hábitat viven los siguientes animales.

A.- Los peces viven en el hábitat.....

B.- Las aves viven en el hábitat.....

D.- Las serpientes viven en el hábitat.....

C.- Las cabras viven en los.....

Páramos, terrestre, acuático, aérea

14.- ¿Cuál es la función del cerebro?

A.- Me sirve para que me vean mejor.

B.- Me sirve para ponerme una gorra.

C.- Me sirve para pensar y analizar las cosas.

D.-No es de mucha utilidad.

15.- ¿Marca donde se ubicado el cerebro?

cráneo ◯ tórax ◯ abdomen ◯