UNIDAD 2- QUIENES SOMOS

MATEMÁTICA

2020-2021

1. **Ubica los números del 21 al 29 en orden ascendente** **2 puntos**



Ubica los números de la familia del 20 de forma ascendente.	**2 puntos**

2. **Observa los números del recuadro y escribe el anterior y posterior de cada uno** **6 puntos**

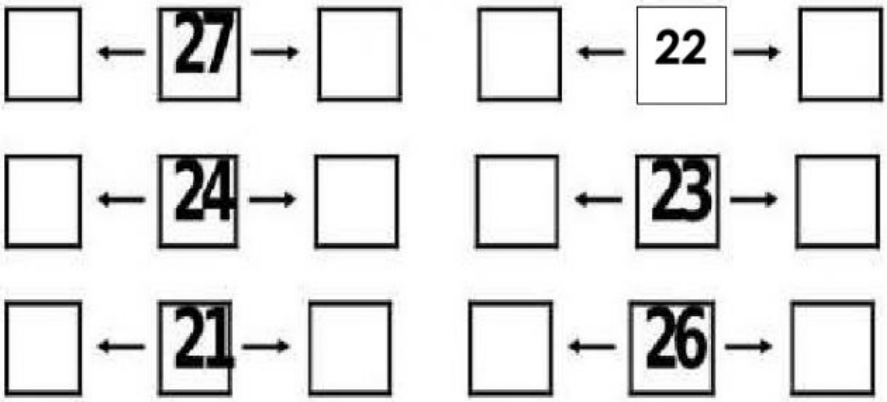

Identifica y escribe correctamente el anterior y posterior de cada número	**0,5 p c/u**

3. **Observa y cuenta cuatas unidades y decenas hay y escribe el número correcto** **2 puntos**

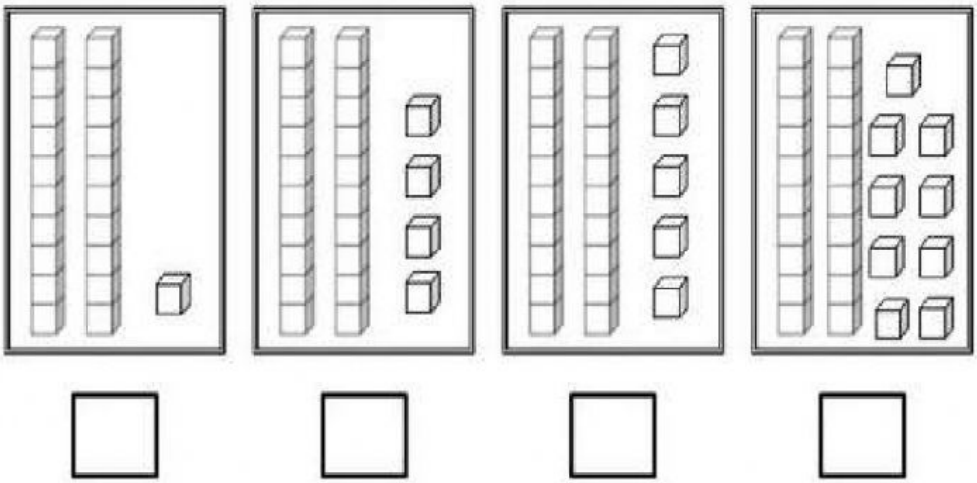

Cuenta las decenas y unidades y escribe los números correctamente.	**0,5 p c/u**