HOJA DE TRABAJO # 2

Ejercicio 1.7 Encuentre la medida de la diagonal de los siguientes rectángulos:

a)

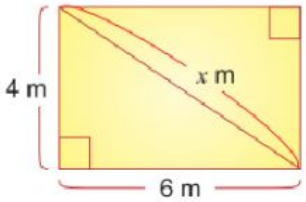

R= _____ m

b)

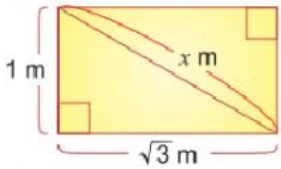

R= _____ m

Ejercicio 1.8 Encuentre la medida de la diagonal de los siguientes cuadrados:

a)

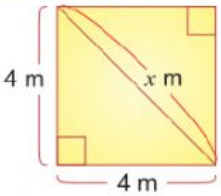

R= _____ m

b)

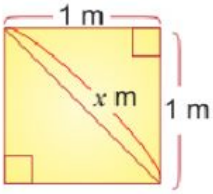

R= _____ m