Fila 2

**NOME** **CLASSE** **DATA**

## VERIFICA DI MUSICA

**1. L'ELEMENTO DA CUI HA ORIGINE IL SUONO SI CHIAMA:**

**A.** ☐ SORGENTE SONORA

**B.** ☐ MEZZO PROPAGANTE

**PUNTI .... /1**

**2. INDICA, SCEGLIENDOLE NELL'ELENCO IN FONDO, DA QUALI PARTI È COMPOSTO UN ORECCHIO.**

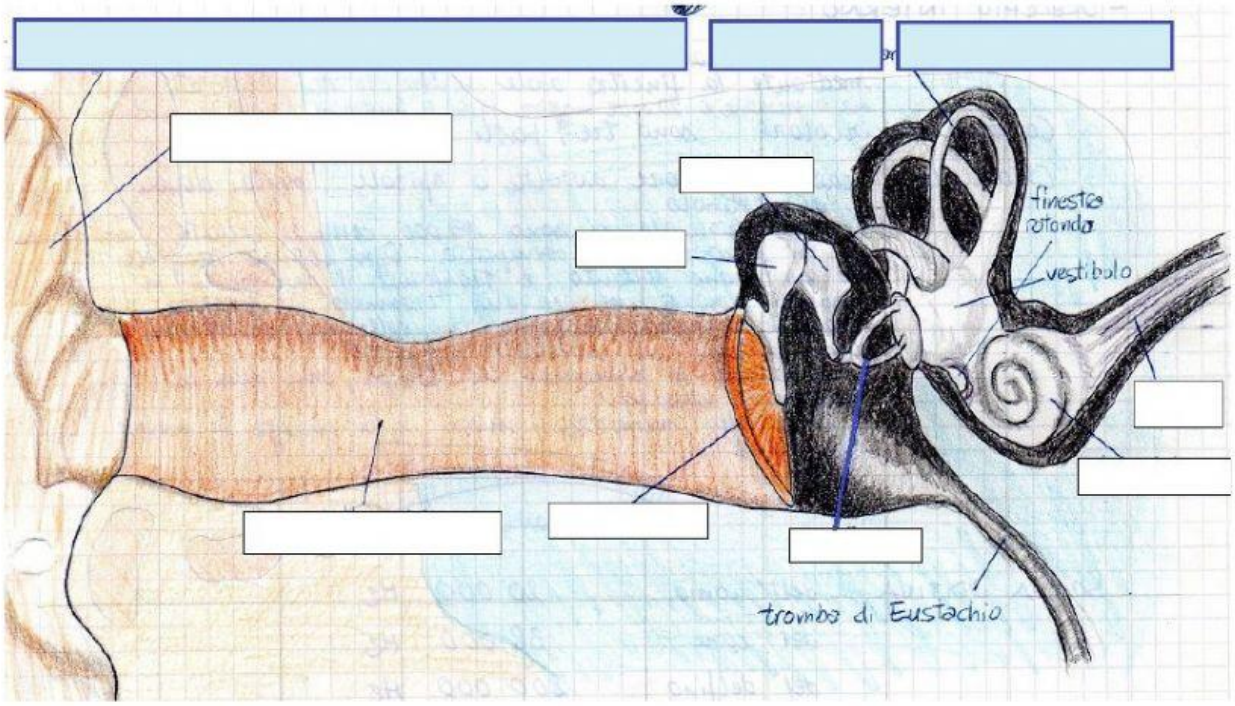


ORECCHIO ESTERNO ORECCHIO INTERNO ORECCHIO MEDIO

*STAFFA* *COCLEA* *CONDOTTO UDITIVO*

*MARTELLO* *INCUDINE*

*TIMPANO* *PADIGLIONE AURICOLARE* *NERVO ACUSTICO*

**PUNTI .... /3**

**3. COME SI CHIAMA IL FENOMENO CHE DÀ LA POSSIBILITÀ DI RIASCOLTARE UN SUONO?**

**A.** ☐ ECO **B.** ☐ MEZZO PROPAGANTE

**C.** ☐ COMPRESSIONE **D.** ☐ DISTORSIONE **PUNTI .... /1**

**4. COLLEGA IN MODO CORRETTO LE SEGUENTI DEFINIZIONI.**

**1.** ALTEZZA 🔀 🔀 **A.** DEFINISCE IL VOLUME DI UN SUONO (*PIANO* E *FORTE*).

**2.** INTENSITÀ 🔀 🔀 **B.** RIGUARDA LA "PERSONALITÀ" DI UN SUONO.

**3.** DURATA 🔀 🔀 **C.** DISTINGUE I SUONI IN ACUTI E GRAVI.

**4.** TIMBRO 🔀 🔀 **D.** INDICA QUANTO "DURA" UN SUONO.

**PUNTI .... /4**

| **5. INDICA SE LE SEGUENTI AFFERMAZIONI SONO VERE O FALSE.** | **V** | **F** |
|---|---|---|
| **1.** IL SUONO SI PROPAGA **SOLO** ATTRAVERSO L'ARIA. | | |
| **2.** NELL'ARIA SI DIFFONDE ALLA VELOCITÀ DI 340 M AL SECONDO. | | |
| **3.** IL SUONO GENERA NELL'ARIA UNA COMPRESSIONE E UNA RAREFAZIONE. | | |
| **4.** LA COMPRESSIONE E LA RAREFAZIONE DELL'ARIA SONO VISIBILI. | | |

**PUNTI .... /4**

**6. CON QUALE MISURA SI INDICA L'INTENSITÀ?**

**A.** ☐ HZ **B.** ☐ DECIBEL

**PUNTI .... /1**

**7. INDICA I SIMBOLI CHE VENGONO UTILIZZATI NEL LINGUAGGIO MUSICALE PER INDICARE L'INTENSITÀ.**

**A.** *pp p mp mf f ff*

**B.** 𝄞 𝄡 𝄢

**C.** 𝅝 𝅗𝅥 𝅗𝅥 𝅘𝅥𝅮 𝅘𝅥𝅯

**PUNTI .... /1**

**8. INDICA I SIMBOLI CHE VENGONO UTILIZZATI NEL LINGUAGGIO MUSICALE PER INDICARE LA DURATA.**

**A.** *pp p mp mf f ff*

**B.** 𝄞 𝄡 𝄢

**C.** 𝅝 𝅗𝅥 𝅗𝅥 𝅘𝅥𝅮 𝅘𝅥𝅯

**PUNTI .... /1**

**9. COME VIENE INDICATA LA DURATA DEI SUONI NEL LINGUAGGIO MUSICALE?**

A. ☐ DECIBEL

B. ☐ HZ

C. ☐ FIGURE DI DURATA

D. ☐ ULTRASUONI

**PUNTI .... /1**

**10. INDICA QUALE SINUSOIDE RAPPRESENTA UN SUONO ACUTO E QUALE UN SUONO GRAVE**

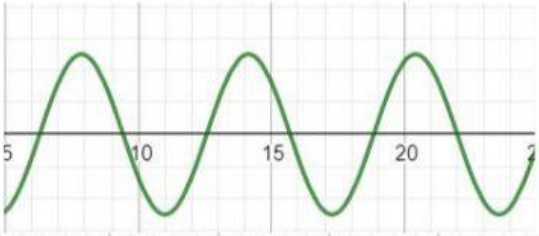


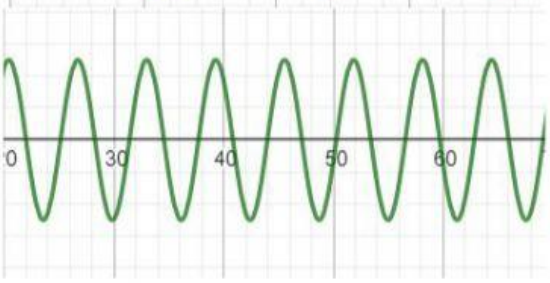


**PUNTI .... /1**

**11. INDICA QUALE SINUSOIDE RAPPRESENTA UN SUONO FORTE E QUALE UN SUONO DEBOLE:**

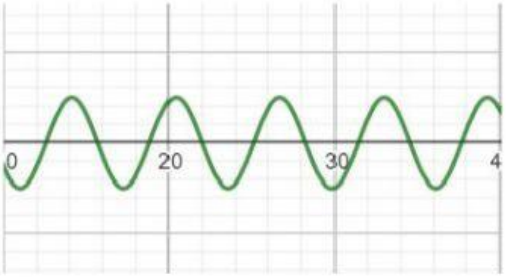


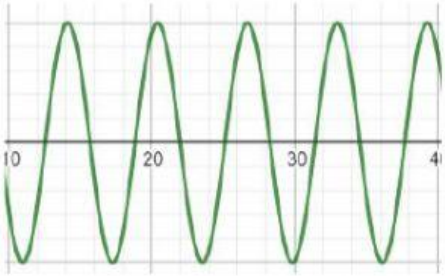


**PUNTI .... /1**