	Q点	R点
A	(3,1)	(2,1)
B	(3,7)	(4,3)
C	(3,5)	(4,3)
D	(3,5)	(3,3)

6. 图5显示五名学生的位置。

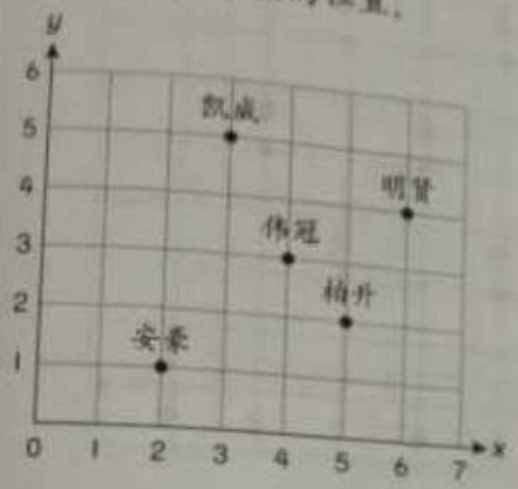

图5

找出明贤的坐标。

A (2,1)　　B (4,3)
C (5,2)　　D (6,4)

7. 图6显示一个坐标平面。

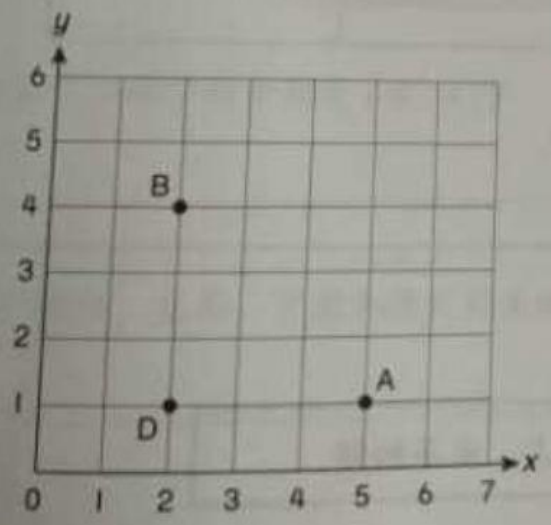

图6

将A、B、C和D点连在一起，可形成正方形。找出C点的坐标。

A (4,4)　　B (4,5)
C (5,4)　　D (5,5)

8. 图7显示各种物品的位置。

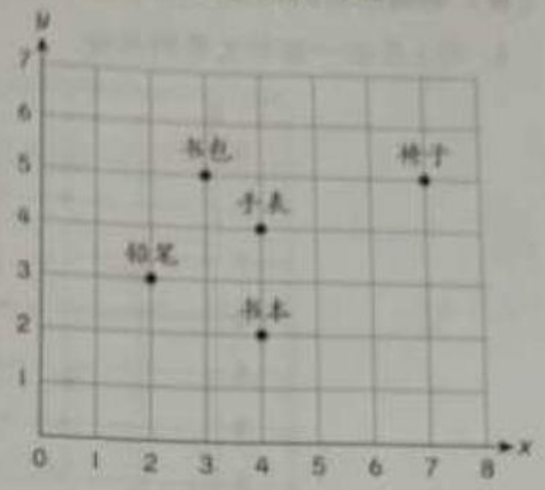

图7

哪个物品的位置是(4,2)?

A 书包
B 书本
C 铅笔
D 手表

9. 图8显示各种球类的位置。



图8

羽毛球的坐标是什么?

A (2,1)
B (4,4)
C (7,2)
D (7,4)