Bienvenidos estudiantes de 4to "C"y "D" de la escuela Nº1 Domingo Faustino Sarmiento

1. Elige la respuesta correcta:
   a. Si dos rectas por mucho que se prolonguen nunca se cortan, se llaman
   b. Si dos rectas al cortarse, forman cuatro ángulos iguales se llaman rectas
   c. Si dos rectas se cortan pero no forman cuatro ángulos iguales son rectas

2. Di si son paralelas (P) o secantes(S)

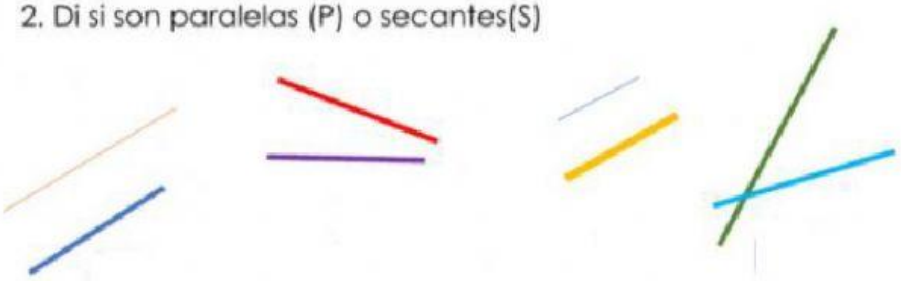

Línea recta
Línea poligonal abierta
Líneas paralelas
Línea curva abierta
Línea poligonal cerrada
Líneas perpendiculares
Línea curva cerrada

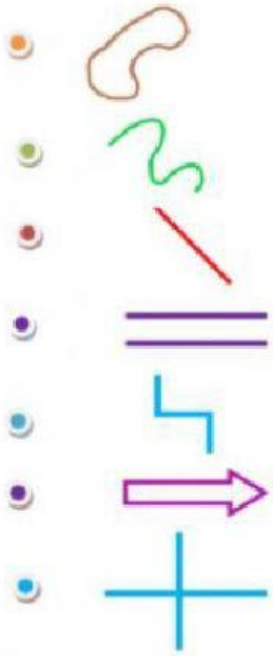

Arrastra cada parte a su lugar correspondiente.

Partes de un ángulo

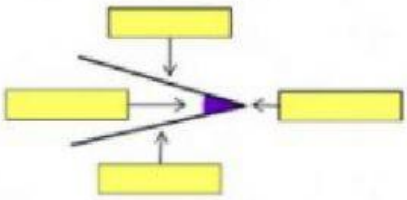

Tipos de ángulos

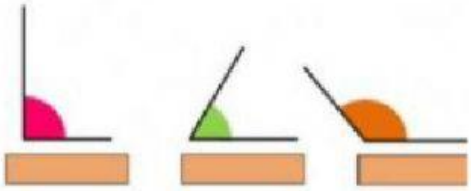

Agudo	Obtuso	Vértice	Amplitud	Lado	Recto	Lado

Observa las rectas y elige de qué tipo son según su posición.



- La línea roja y la azul:
- La línea morada y la azul:
- La línea roja y la rosa:
- La línea roja y la morada:

¿Cuánto miden los siguientes ángulos? Usa tu transportador para comprobarlo y dí de qué tipo son: (escribe las medidas así: 46º grados).

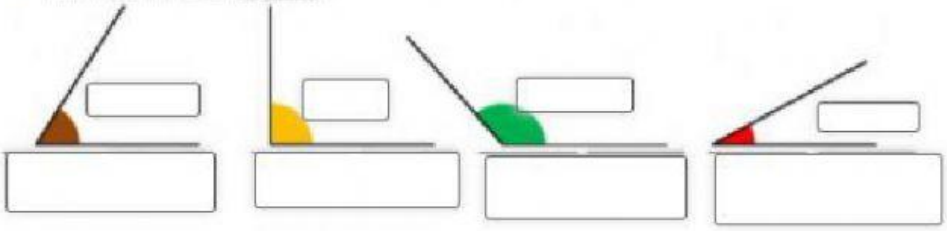

1. Traza las rectas y responde.



- La recta que pasa por los puntos A y B.
- La recta que pasa por los puntos C y D.
- ¿Cómo son las dos rectas que has dibujado? _____

2. Observa y responde.



- ¿Cómo son las rectas roja y azul entre sí? _____
- ¿Cómo son las rectas roja y verde entre sí? _____
- ¿Y las rectas azul y rosa? _____
- ¿Qué recta es secante a todas las demás? _____