Programa de Educación Física

Tarea # 3- Equilibrio estático y dinámico

Criterios:	
Identificó cada dibujo.....	15 pts
Entregó la tarea a tiempo.....	5 pts
Total.....	**20 pts**

Nombre: _____ Maestra:_____ Fecha: _____

Instrucciones: identifica las siguientes imágenes en equilibrio **estático** y equilibrio dinámico.

1- Dinámico
Estático

2- Dinámico
Estático

3- Dinámico
Estático

4- Dinámico
Estático



5- Dinámico
Estático

6- Dinámico
Estático

7- Dinámico
Estático

8- Dinámico
Estático



9- Dinámico
Estático



10-Dinámico
Estático

11-Dinámico
Estático



12-Dinámico
Estático

13-Dinámico
Estático

14-Dinámico
Estático

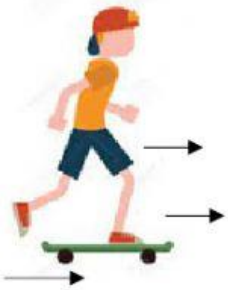

15- Dinámico
Estático