Nombre y apellidos: _____

1. Completa la serie:

0- 1- _____ - 10

11- 12- _____ - 20.

2. Completa.

1 decena son ___ unidades.

10 unidades son una _____.

3. Antes y después:

☐ - 14 - ☐ ☐ - 9 - ☐ ☐ - 12 - ☐

☐ - 15 - ☐ ☐ - 5 - ☐ ☐ - 7 - ☐

4. ¿Cuántos quedan? Cuenta, dibuja y completa:



5. Mira la imagen y escribe V si es verdadero o F si es falso:



☐ Hay 3 gatos en la habitación.

☐ Hay 3 flores en el jarrón.

☐ Alguna de las flores está fuera del jarrón.

☐ Todos los gatos están debajo de las sillas.

6. Sumas y restas:

6 +5 = ☐ 7 +4 = ☐ 9 +3 = ☐ 8 +4 = ☐

9-6 = ☐ 10-5 = ☐ 7-4 = ☐ 3-1 = ☐

7. Coloca > o < , = :

10 ☐ 8 15 ☐ 20 6 ☐ 4 16 ☐ 9

3 ☐ 9 13 ☐ 13 12 ☐ 8 19 ☐ 17

8. Resuelve mirando el dibujo:



1. Si sale un niño de la habitación, ¿cuántos hay?

2. Si se colocan tres ositos en la repisa, ¿cuántos hay?

3. Si un niño llega con cinco cuadros, ¿cuántos hay?