Clases de fracciones

Recuerda:

F. Homogéneas: igual denominador.
F. Heterogéneas: diferente denominador.
F. equivalentes: tiene el mismo valor aunque sean diferentes.

1. Relaciona las fracciones equivalentes:

$\frac{14}{20}$	$\frac{9}{15}$	$\frac{2}{5}$	$\frac{7}{8}$	$\frac{3}{4}$
$\frac{2}{5}$	$\frac{7}{10}$	$\frac{18}{24}$	$\frac{18}{45}$	$\frac{21}{24}$

2. ¿Qué fracción representa cada dibujo? Marca la clase de fracción.





HOMOGÉNEAS

HETEROGÉNEAS



HOMOGÉNEAS

HETEROGÉNEAS

Prof. Elizabeth Vertiz