Trabajo práctico de Ciencias Naturales

1. Realiza esta ficha interactiva, obtén el puntaje y envía una foto o captura de pantalla por la plataforma GoSchool. Puedes tener a mano las tareas anteriores, para ayudarte a resolver el trabajo práctico.

FASES DE LA LUNA

1) ARRASTRA CADA FASE DE LA LUNA CON SU NOMBRE.

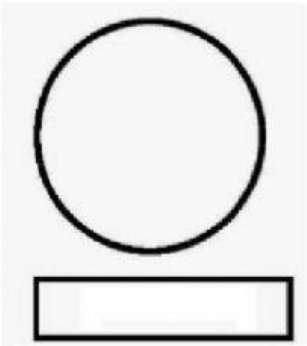

CASI NO SE VE, ESTÁ ESCONDIDA.

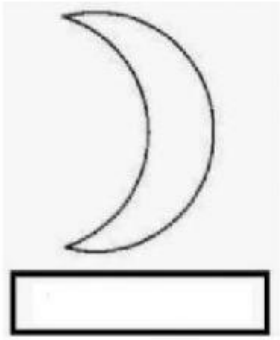

LA VEMOS PEQUEÑITA, APENAS ILUMINADA.

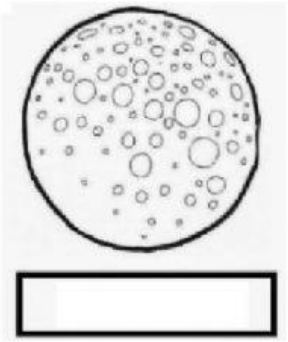

ESTÁ REDONDA, GRANDE, SÚPER ILUMINADA Y BRILLANTE.

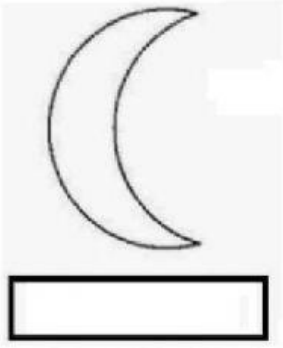

ES LA MEDIA LUNA. SE VE FINITA, CON ESTA FORMA.

LUNA LLENA | CUARTO CRECIENTE | CUARTO MENGUANTE | LUNA NUEVA

SISTEMA SOLAR

2) ARRASTRA LOS NOMBRES DE CADA PLANETA A SU LUGAR. AYÚDATE CON LOS COLORES, TIENE QUE COINCIDIR EL COLOR DEL RECUADRO CON EL DEL SUSBRAYADO.

3) ARRASTRA CADA PLANETA A SU LUGAR, RECORDANDO LOS COLORES CON LOS QUE PINTASTE CADA UNO. PUEDES VOLVER A VER EL VIDEO CON EL QUE TE GUIASTE PARA PINTAR: https://www.youtube.com/watch?reload=9&v=lo9T9zjOXOQ

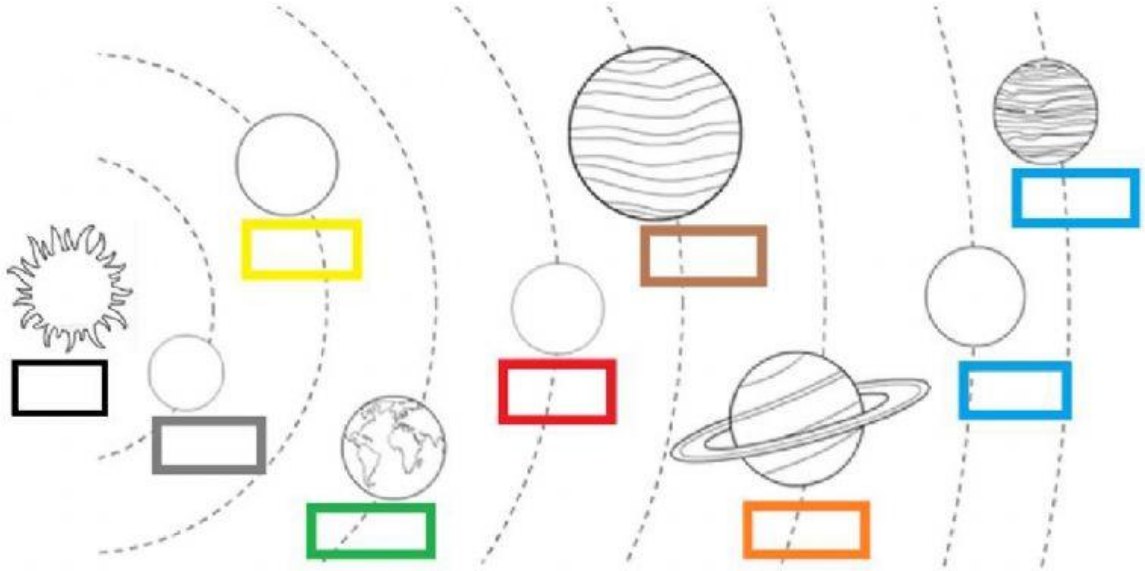

VENUS | SATURNO | URANO | TIERRA | MARTE | NEPTUNO | MERCURIO | JÚPITER | SOL