ESCUELA NORMAL SUPERIOR DE BUCARAMANGA

NOMBRE: _____GRADO _____

1. Une con una línea la columna A con la B según corresponda.

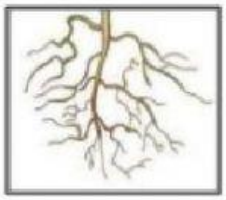





Órgano reproductor de ciertas plantas.

Estructura que incorpora el dióxido de carbono del aire y capta la luz solar.

Órgano que absorbe el agua y las sales minerales del suelo.

Estructura que transporta el agua, los mineralesy el "alimento" a todas las partes de la planta.