Después de ver el video analice la figura y complete las tablas

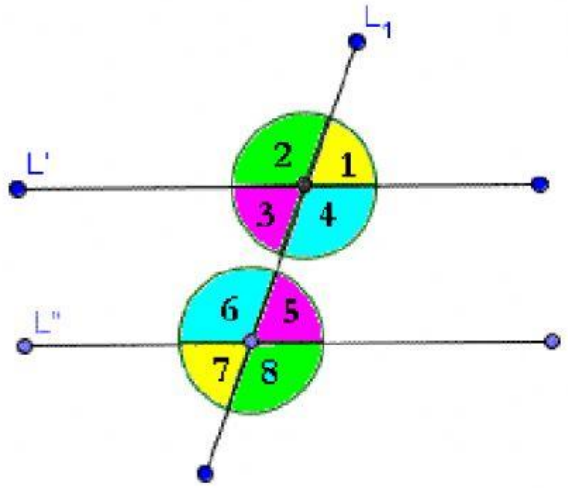

ÁNGULOS OPUESTOS POR EL VÉRTICE		
2	y	
3	y	
6	y	
7	y	

CORRESPONDIENTES		
2	y	
3	y	
1	y	
4	y	

ALTERNOS INTERNOS		
3	y	
4	y	

ALTERNOS EXTERNOS		
1	y	
2	y	

COLATERALES INTERNOS		
4	y	
3	y	

COLATERALES EXTERNOS		
2	y	
1	y	

Analice la figura y elija una de las siguientes respuestas para completar las afirmaciones de abajo. (pueden repetirse respuestas)

DIFERENTES // 180// IGUALES // COMPLEMENTARIOS // SUPLEMENTARIOS// 90

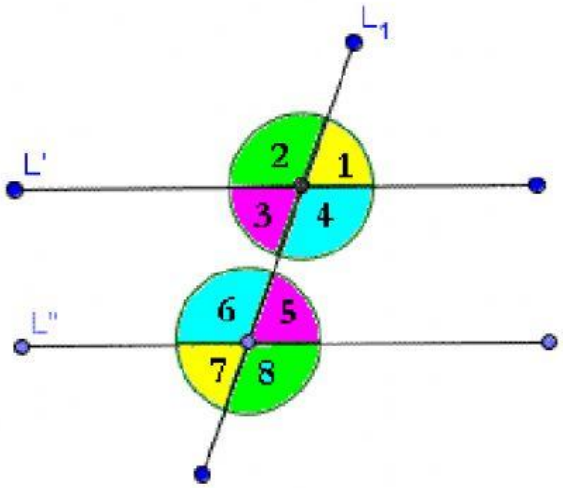

- Los ángulos opuestos por el vértice son

  _____ entre sí.

- Los ángulos correspondientes son

  _____ entre sí.

- Los ángulos alternos internos son

  _____ entre sí.

- Los ángulos alternos externos son

  _____ entre sí.

- Los ángulos colaterales internos son

  _____ porque sumados miden

  _____ grados.

- Los ángulos colaterales internos son

  _____ porque sumados miden

  _____ grados.

SI EL ÁNGULO 4 MIDE 125°

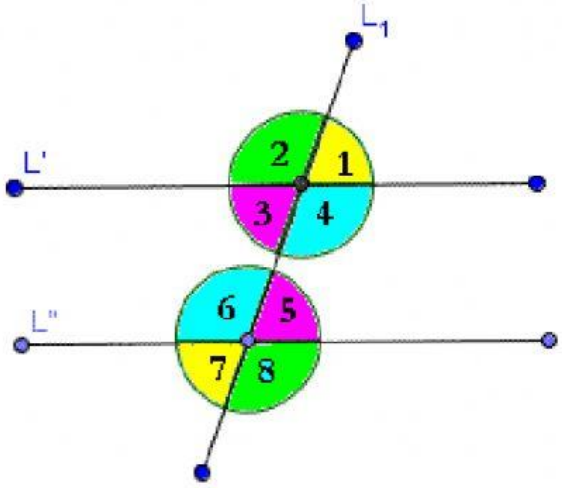

¿CUÁNTO MIDE EL ÁNGULO MARCADO CON EL NÚMERO…

1		grados
2		grados
3		grados
4		grados
5		grados
6		grados
7		grados
8		grados