Nama Peserta Didik :

LKT3ST4PB3&6

Nomor Absen :

1. Jawablah pertanyaan-pertanyaan berikut sesuai isi cerita pada halaman 112.

   1. Apa yang dilakukan Siti setelah salat Magrib?

   .....

   2. Di mana ibu mendengarkan Siti mengaji?

   .....

   3. Apa yang dilakukan Siti setelah mengaji?

   .....

   4. Mengapa Siti rajin belajar?

   .....

   5. Apa judul cerita di atas?

   .....

2. Lengkapi kalimat berikut dengan kata yang tepat dengan cara menarik garis.

1. Matahari terbenam hari mulai	a. tekun
2. Bintang nampak ... di malam hari.	b. bersinar
3. Siti anak yang taat	c. mengulang
4. Setiap malam Siti ... pelajaran.	d. malam
5. Siti belajar dengan	e. beribadah

3. **Perhatikan gambar-gambar di bawah ini!**
   Mana gambar yang menunjukkan kebiasaan yang baik pada malam hari?
   Berilah tanda centang (✓) pada gambar tersebut!



4. Ayo kita hitung Bersama.

Banyak buku seluruhnya adalah ....

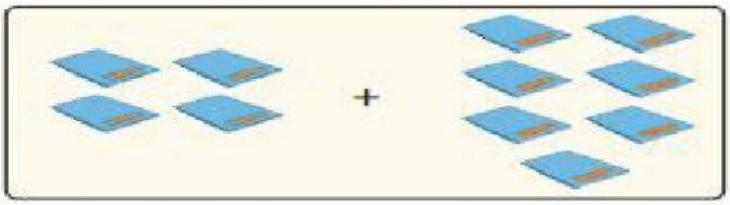

4 + 7 = 11

Siti juga menghitung pensil warnanya.
Di tangan Siti ada 4. Di kotak pensil ada 8.

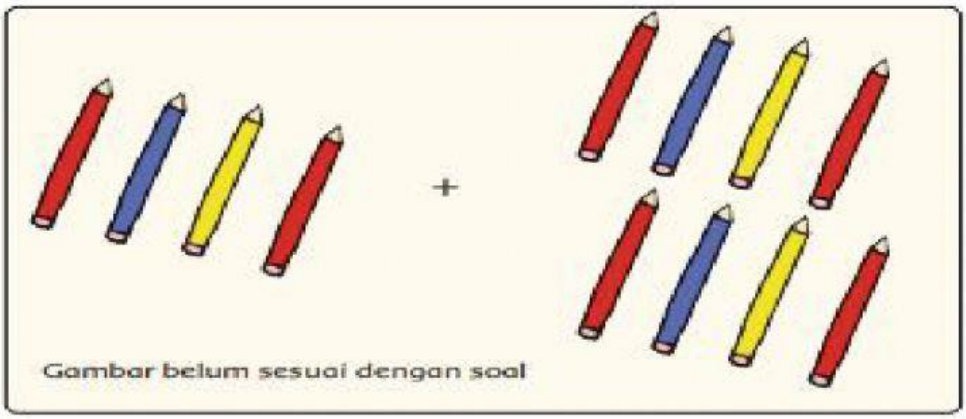

... + ... = ...

5. Di piring ada 6 potong pisang goreng. Lalu Ibu Siti meletakkan 6 potong pisang goreng lagi di piring itu. Berapa banyak pisang goreng di piring sekarang?

... + ... = ...

Di rak piring ibu ada 12 gelas. Lalu ibu memasukkan lagi 6 gelas yang baru dicuci. Berapakah banyak gelas di rak piring ibu sekarang?

... + ... = ...

6. Berapakah jumlahnya?

1.	5	+	9	=	...
2.	6	+	8	=	...
3.	9	+	4	=	...
4.	8	+	7	=	...
5.	7	+	9	=	...
6.	10	+	6	=	...
7.	9	+	8	=	...
8.	11	+	4	=	...
9.	8	+	7	=	...
10.	7	+	9	=	...

7. Kerjakanlah soal berikut.

1. Udin, tempe goreng yang masih di piring ada 6 potong. Kita sudah makan 6 potong. Berarti tadi tempenya ada berapa potong ya?

   ☐ + ☐ = ☐

   .....

2. Ibu tadi menyediakan 12 buah jeruk. Kita sudah makan 5 buah. Berapa sisanya ya, Din?

   ☐ - ☐ = ☐

   .....

3. Tadi ada 20 potong daging. Daging yang kita makan ada 6 potong. Berapa potong daging yang tersisa, Din?

   ☐ - ☐ = ☐

   .....

4. Tadi Ibu membeli 18 buah jeruk. Ibu meletakkan 12 buah di piring. Berapa buah jeruk yang belum diletakkan di piring?

   ☐ - ☐ = ☐

   .....

5. Sendok yang digunakan untuk makan ada 6. Ibu masih mempunyai 14 sendok yang belum dipakai.
   Jadi berapa jumlah sendok Ibu, ayo?

   ☐ + ☐ = ☐

   .....

8. Untuk nomor 8 dikerjakan di buku paket halamn 126.