PROBLEMAS

1. Jugando a la diana, Penélope ha obtenido 24 puntos en la primera partida, 22 en la segunda y 23 en la tercera. ¿Cuántos puntos ha obtenido en total Penélope?



Ha obtenido ..... puntos.

2. Fernando ha colocado en una caja las piezas de sus tres puzzles. Si los puzzles tenían 22, 41 y 15 piezas, ¿cuántas piezas hay en total en la caja?

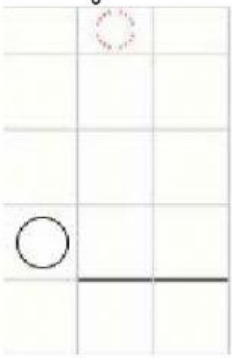

Hay ..... piezas en total.

3. María tenía 68 cromos. Si Juan le ha regalado 25 cromos a su prima María. ¿Cuántos cromos tiene ahora María?



María tiene ..... cromos.