GEOGRAFIA: Território brasileiro, limites, fronteiras, povos e paisagens

1 - OBSERVE O MAPA DO BRASIL E RESPONDA AS QUESTÕES ABAIXO:

Fonte IBGE

A) Marque no mapa o nome do Estado que você mora e depois escreva o nome.

_____

B) O NOSSO PAÍS É FORMADO POR QUANTOS ESTADOS? PESQUISE.

_____

C) EM GOIÁS FICA A SEDE DO GOVERNO FEDERAL. QUAL A CAPITAL DO BRASIL?

( ) BRASÍLIA
( ) BAHIA
( ) SÃO PAULO

D) QUAIS ESTADOS DO BRASIL COMEÇAM COM A LETRA A?

_____

_____

11. Relacione corretamente:

(1) Região Centro-Oeste ( ) 09 estados
(2) Região Norte ( ) 04 estados
(3) Região Sudeste ( ) 07 estados
(4) Região Nordeste ( ) 03 estados

✎ Observe as siglas e encaixe os nomes dos Estados brasileiros no diagrama.



1- AC
2- AL
3- AM
4- RO
5- RR
6- MG
7- RJ
8- MS
9- PE
10- RN
11- PA
12- SP
13- ES



Cidade do Recife

Fernando de Noronha

1) Observe as imagens e descreva as semelhanças e diferenças apresentadas:

a) Cidade do Recife:

_____

_____

Fernando de Noronha:

_____

_____

b) Na sua opinião, por que os homens produzem paisagens culturais diferentes?

_____

_____

A **população brasileira** é bastante miscigenada. Isso ocorreu em razão da mistura de diversos grupos humanos que aconteceu no país. São inúmeras as raças que favoreceram a formação do povo brasileiro. Os principais grupos foram os povos indígenas, africanos, imigrantes europeus e asiáticos. Tendo em vista essa diversidade de raças, culturas e etnias, isso nos promoveu uma grande riqueza cultural. Observe a obra: Operários de Tarsila do Amaral e faça uma releitura da obra em seu caderno. Veja alguns exemplos.



Operários – Tarsila do Amaral