RESOLVEMOS PROBLEMAS JUNTANDO CANTIDADES DE PLANTAS

1.Lee el problema y completa.Escribe el número en los cuadrados



2.Representemos con material base diez. Recuerda que los cubitos son unidades. Ubica los cubitos según la cantidad de los tomates.

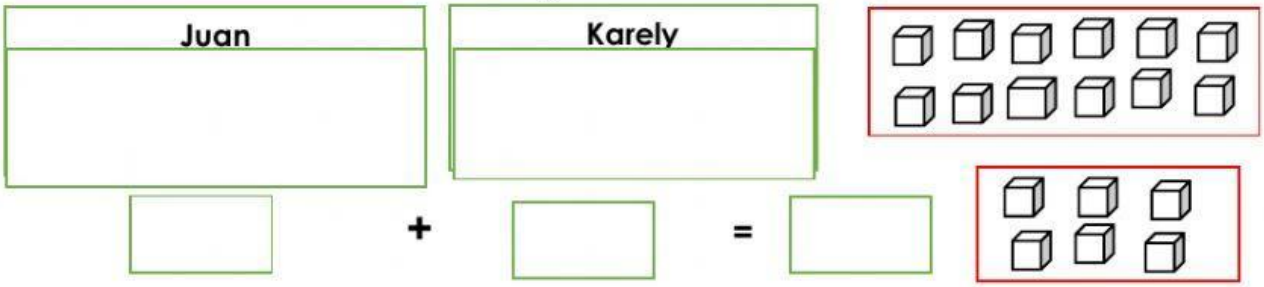

3.Ahora lo ubicamos en el trablero posicional las unidades y realizamos el canje , por cuanto canjeamos 10 unidades…arrastra la decena

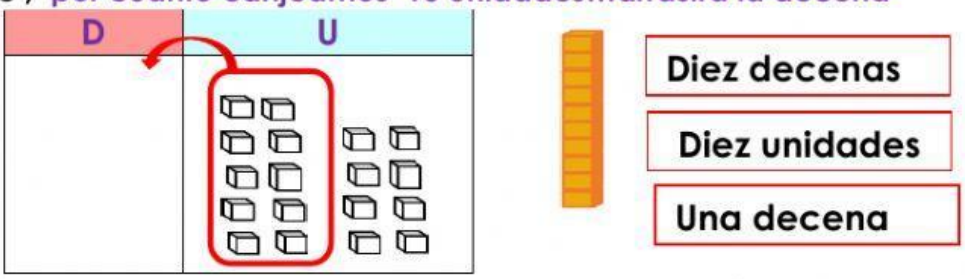

4.-Finalmente completa el esquema ,el tablero y realiza la suma.Selecciona la respuesta correcta de la suma.

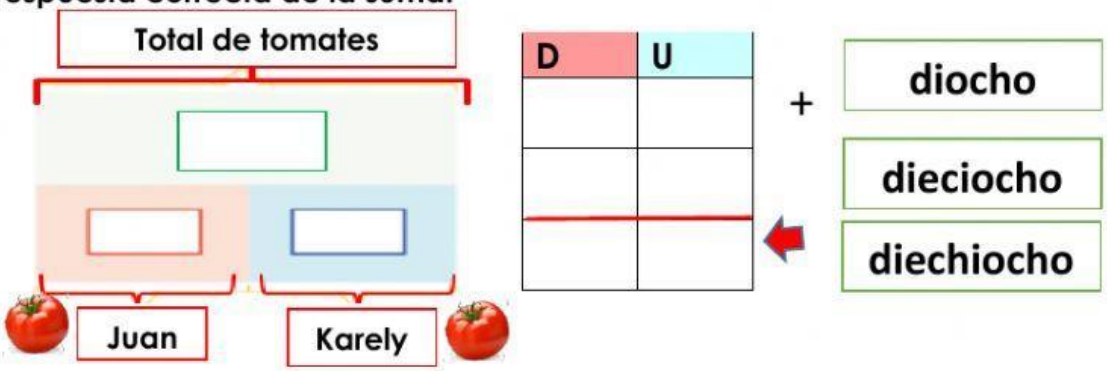

Completa escribiendo los números y selecciona la escritura correcta del número en la respuesta

5.-Sumiko compró 14 rosas y su mamá 6 girasoles ¿Cuántas flores compraron entre las dos?

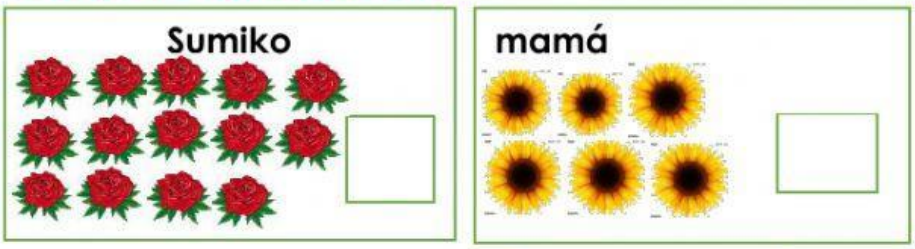

D	U

+

- Compraron entre las dos.....flores.

vente | viente | veinte

6.-Samira plantó 9 árboles y su papá 5 árboles ¿Cuántos árboles plantaron en total?



D	U

+

- Plantaron en total ..._____...árboles

Catorce | Catoce | Cartoce

7.-Isai compro en el mercado 15 plátanos y Azumi compró 4 manzanas ¿Cuántas frutas compraron en total?

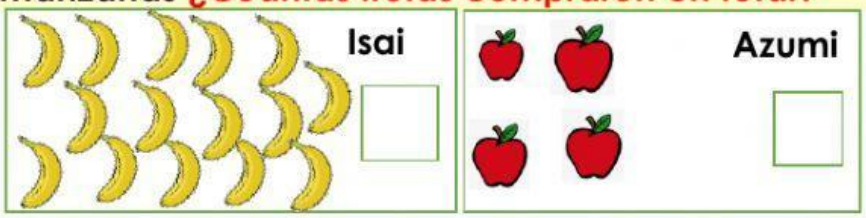

D	U

+

- Compraron en total .....frutas

Dicinueve | Dicenueve | Diecinueve