تعيين الكسور على محور الاعداد

الاسم: _____ التّاريخ:_____

1- أكتب الكسر الناقص داخل كل مستطيل فارغ على محور الأعداد:

أ_

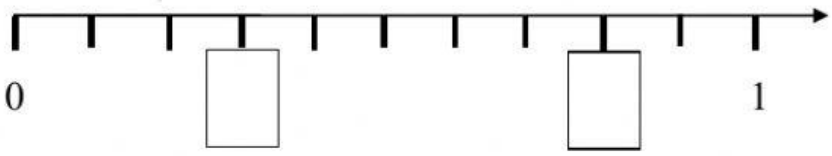


ب-

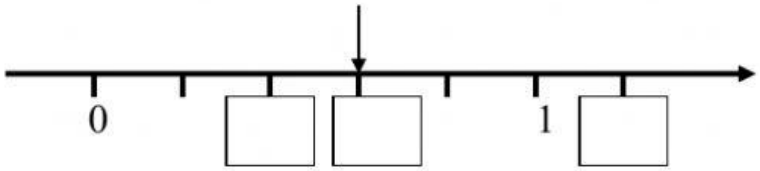


ج-

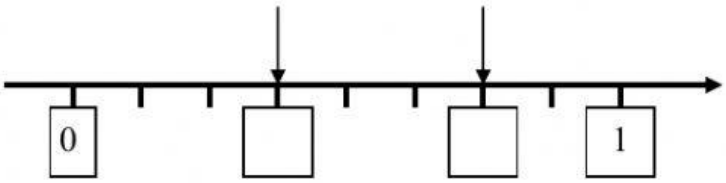

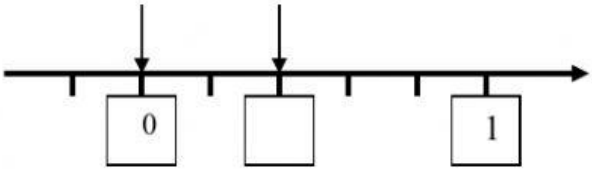
د-