Honako puntu diagrama hauetan aurreko astean herriko zinemara joan ziren ume eta helduen kopurua irudikatuta dago. Erreparatu datuei, eta erantzun honako galdera hauei:

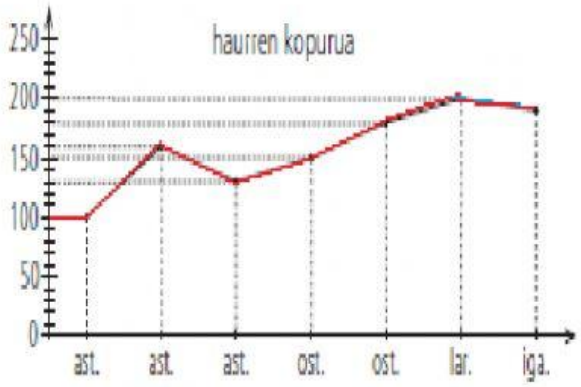

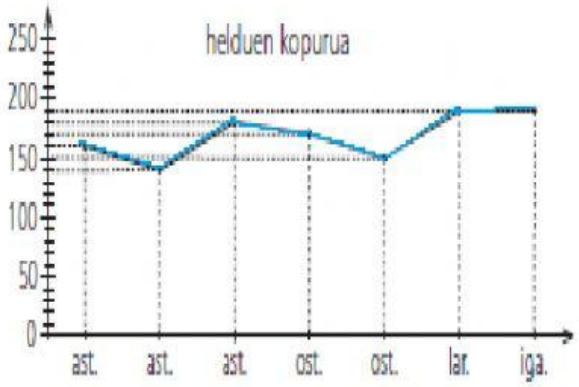

- **Zenbat heldu joan ziren zinemara aurreko asteartean? _____**
- **Zer egunetan joan zen haur kopuru handiena? _____**
- **Zenbat pertsona joan ziren igandean zinemara? _____**
- **Zenbat heldu gehiago joan ziren haurrak baino astelehenean? _____**

5. mailako ikasleei zein pelikula mota gustatzen zaien galdetu diete eta grafiko batean adierazi dituzte erantzunak:

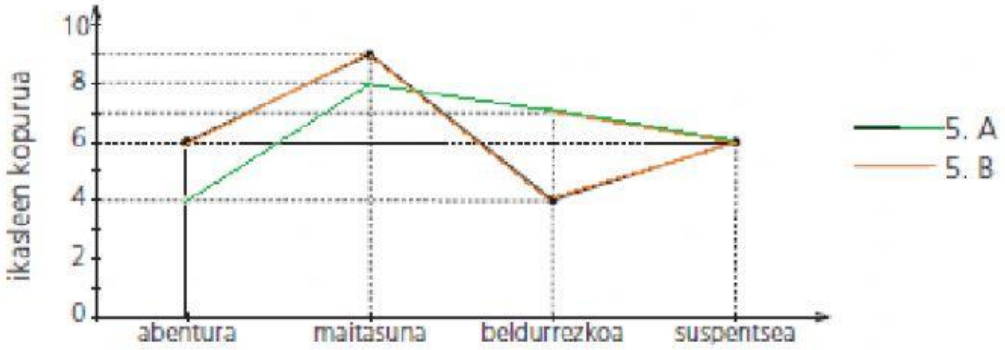

- **Zein gelakoei gustatzen zaizkie gehiago beldurrezko filmak? _____**
- **Zein pelikula gustatzen zaizkie berdin bi gelako ikasleei? _____**
- **Zenbat pertsonei gustatzen zaizkie abentura pelikulak? _____**