اختر الإجابة الصحيحة فيما يلي :

1- أي من الآتي من خواص اللافلزات ؟

a. غير موصلة للحرارة و الكهرباء .
c. قابلة للطرق .
b. لامعة .
d. صلبة .

2- لماذا لا تجد مركب الماء في الجدول الدوري ؟

a. لأنه يحتوي على الغازات فقط .
c. لأنه يحتوي على المواد الصلبة فقط .
b. لأنه يحتوي على العناصر فقط .
d. لأنه يحتوي على مركبات فقط .

3- ماذا تسمى الصفوف الأفقية في الجدول الدوري ؟



a. عناصر .
c. دورات .
b. جسيمات .
d. مجموعات .

4- ماذا تسمى العناصر الملونة بالأخضر ؟

a. اللافلزات .
c. الفلزات .
b. أشباه الفلزات .
d. الغازات النبيلة .

5- ماذا تسمى العناصر الموجودة على يمين الجدول ؟

a. اللافلزات .
c. الفلزات .
b. أشباه الفلزات .
d. الغازات النبيلة .

LIVEWORKSHEETS



6- ما الذي يمثله كل مربع في الجدول الدوري ؟

a. ذرة واحدة .
c. بروتون واحد .
b. عنصر واحد .
d. إلكترون واحد .

7- تحتوي على البروتونات و النيوترونات .

a. الإلكترونات .
c. الغلاف الخارجي للذرة .
b. نواة الذرة .
d. العناصر .

8- ماذا تسمى العناصر الموجودة على يسار الجدول ؟

a. اللافلزات .
c. الفلزات .
b. أشباه الفلزات .
d. الغازات النبيلة .

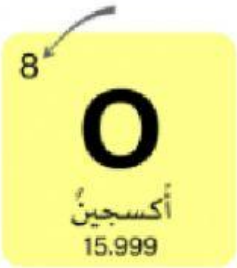

9- ما الذي يُشير إليه السهم في الصورة ؟

a. العدد الذري .
c. عدد النيوترونات .
b. العدد الكتلي .
d. عدد العناصر .

10- يمثل ..... عدد البروتونات في الذرة

a. الكتلة الذرية .
c. المقياس الذري .
b. العدد الذري .
d. الوزن الذري .

LIVEWORKSHEETS