Cuartos básicos
LLC

EL MOVIMIENTO Y LAS ESTRUCTURAS DEL CUERPO HUMANO

I) Observa las imágenes y une cada sistema.



Sistema muscular	Sistema óseo

II) Lee atentamente cada pregunta y elige la respuesta correcta.

1. ¿Qué órgano protege esta estructura?

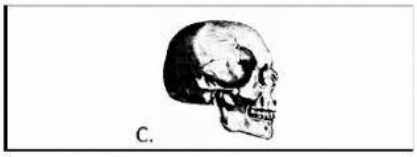

a) Cuello
b) Cerebro
c) Corazón

2. ¿Qué órgano protege esta estructura?

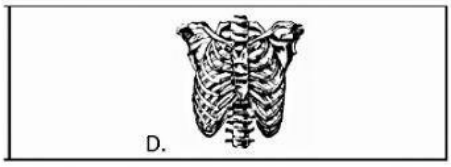

a) corazón
b) Pulmones
c) Todas las anteriores

III) Completa el esquema arrastrando los conceptos.

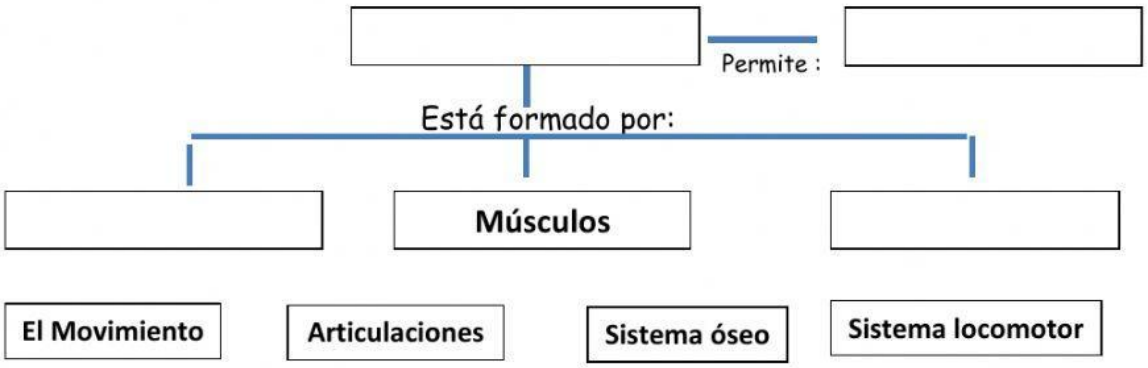

El Movimiento | Articulaciones | Sistema óseo | Sistema locomotor