ورقة عمل تفاعلية

المستوى الأول	المستوى الثاني	المستوى الثّالث
$13 \times 2 = \square$	اكتب الجملة العددية واوجد الناتج $\square \times \square = \square$	اختر الجمل العددية التي لها نفس ناتج النموذج







A) 9 x 7

B) 3 x 12

C) 3 x 21