ЗНАЙОМИМОСЯ ІЗ ЗАДАЧАМИ НА ЗНАХОДЖЕННЯ СУМИ ТРЬОХ ДОДАНКІВ

1 Прокоментуй обчислення за схемами. Обчисли

$8+3=\overset{10}{8+2}+1=10+1=$ □□ (8 = 2 + 1)

$11-4=\overset{10}{11-1}-3=10-3=$ □ (11 = 1 + 3)

$9+3=\overset{10}{9+}\square+\square=10+\square=$ □□ (9 = □ + □)

$12-4=\overset{10}{12-}\square-\square=10-\square=$ □ (12 = □ + □)

$8+3=\overset{10}{8+}\square+\square=10+\square=$ □□ (8 = □ + □)

$11-2=\overset{10}{11-}\square-\square=10-\square=$ □ (11 = □ + □)

$8+4=\overset{10}{8+}\square+\square=10+\square=$ □□ (8 = □ + □)

$12-3=\overset{10}{12-}\square-\square=10-\square=$ □ (12 = □ + □)

Задачі на знаходження суми трьох доданків

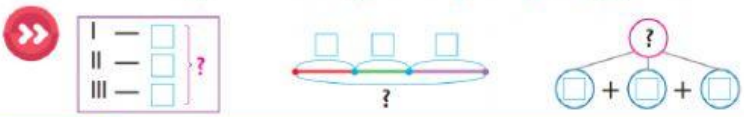

2 Прочитай задачі. Обери ті, де потрібно знайти суму трьох доданків.

1) У кішки 1 біле, 3 чорні й 2 смугасті кошенята. Скільки білих та чорних кошенят?

2) У кішки 1 біле, 3 чорні й 2 смугасті кошенята. На скільки більше чорних кошенят, ніж смугастих?

3) У кішки 1 біле, 3 чорні й 2 смугасті кошенята. Скільки всього кошенят у кішки?

3 Добери схему до тексту задачі.

Тетянка намалювала 2 картинки фарбами, 5 — олівцями та 3 — крейдою. Скільки всього малюнків намалювала Тетянка?

1) 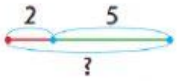

Тетянка намалювала 2 картинки фарбами, 5 — олівцями та 3 — крейдою. Скільки всього малюнків фарбами та крейдою намалювала Тетянка?

2) 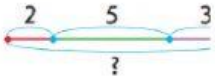

4 Обчисли значення виразів. Впиши результат в порожні клітинки

$(9-5)+4=$ □ $\qquad (15-5)+18-6=$ □

$(44-4)-30=$ □ $\qquad 45-(10+2)-11=$ □