EVALUASI

Bahasa Indonesia

1. Pasangkan gambar di bawah ini sesuai dengan kegunaanya!



Untuk membersihkan rumput yang tumbuh di jalan

Untuk menyapu lantai yang kotor



Untuk membersihkan debu dan sarang laba-laba di atas lemari

Berilah tanda silang (x) pada pilihan a, b, atau c yang menurut kamu paling tepat!

2.

Gambar di samping digunakan untuk … lantai yang basah.

a. Mengotori
b. Membersihkan
c. Membuang

3. Peralatan di bawah ini yang digunakan orang untuk memotong ranting-ranting pohon yang menghalangi jalan adalah ….

a.

b.

c.

Matematika

1. Pasangkan gambar di bawah ini sesuai dengan namanya!

Segitiga



Lingkaran

Segiempat

Berilah tanda silang (x) pada pilihan a, b, atau c yang menurut kamu paling tepat!

2.

Gambar di samping mempunyai titik sudut sebanyak … buah

a. 1
b. 2
c. 3

3. Bangun di bawah ini yang mempunyai titik sudut sebanyak 4 buah adalah ….

a.

b.
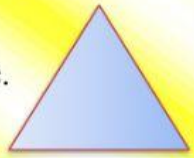
c.