ชื่อ-สกุล.....เลขที่.....ชั้น.....

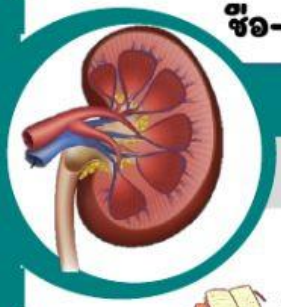

โครงสร้างของไตและการทำงานของไต

1. คำชี้แจง จงเติมคำลงในช่องว่างให้สมบูรณ์

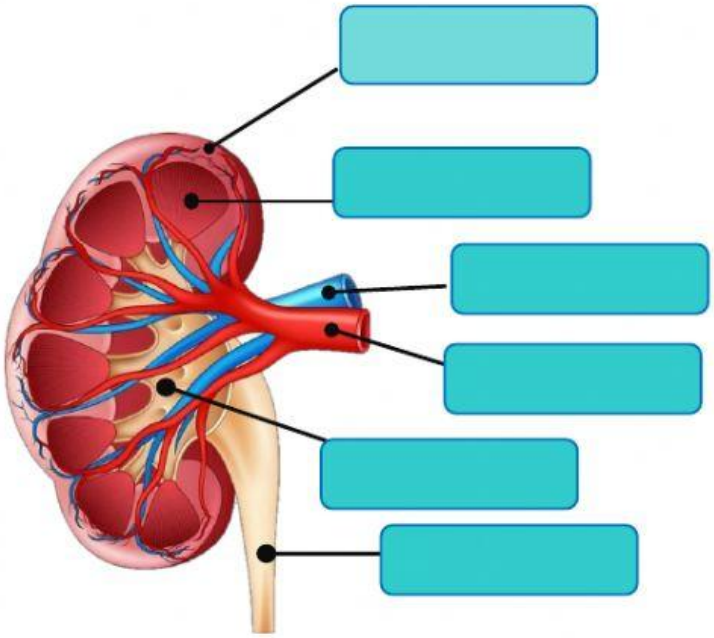

- โบว์แมนส์แคปซูล Bowman's capsule
- ท่อขดส่วนต้น
- โกลเมอรูลัส Glomerulus
- ท่อขดส่วนปลาย
- ท่อรวม
- ห่วงเฮนเลขาลง
- ห่วงเฮนเลขาขึ้น

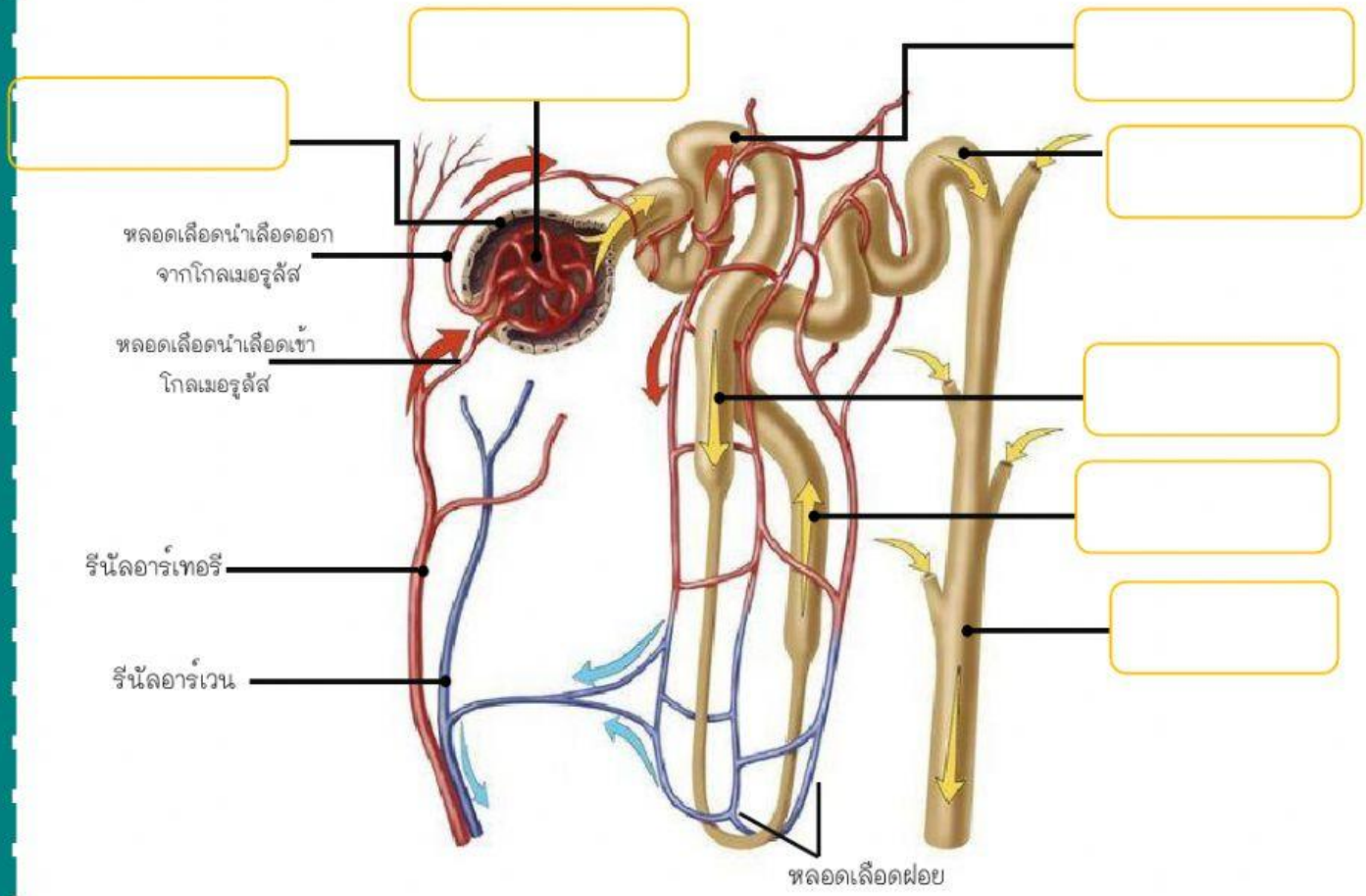

LIVEWORKSHEETS

2.คำชี้แจง จงนำข้อความที่กำหนดให้เติมในช่องว่างของการทำงานในการกำจัดของเสียในร่างกายโดยระบบขับถ่าย

- ท่อไต
- ท่อปัสสาวะ
- ท่อหน่วยไต
- ยูเรีย ไอออน น้ำ
- กลูโคส กรดแอมิโน ยูเรีย ไอออน น้ำ
- กลูโคส กรดแอมิโน ไอออน น้ำ
- กลูโคส กรดแอมิโน ยูเรีย ไอออน น้ำ เซลล์เม็ดเลือด โปรตีน

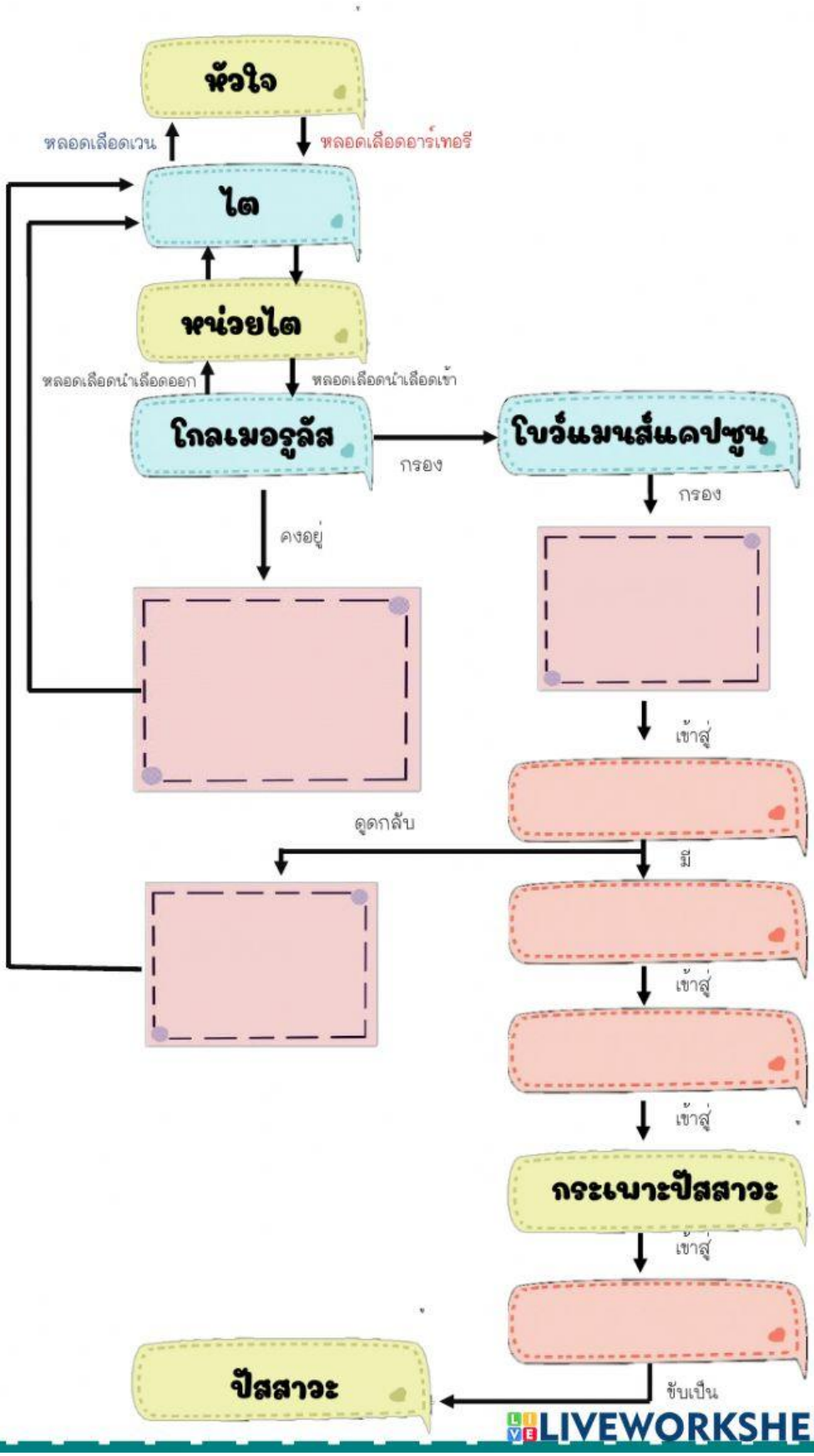

LIVEWORKSHEETS