FIGURAS PLANAS 1º ESO

1. Relaciona con flechas cada nombre con el polígono correspondiente:

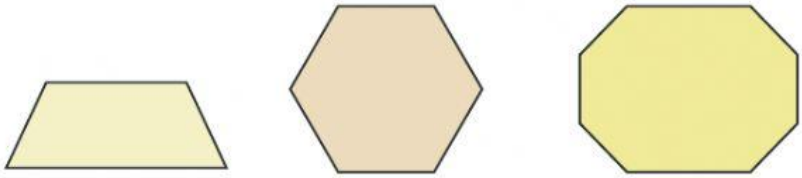

PENTÁGONO TRAPECIO OCTÓGONO

2. Calcula el perímetro y el área de estas figuras:

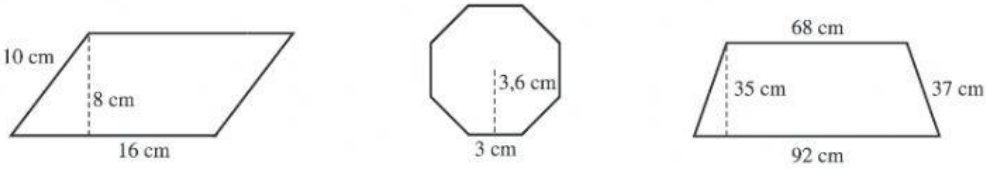

P= P= P=

A= A= A=

3. Calcular la superficie de la zona sombreada:



4. Una fuente circular está rodeada de un zócalo de mármol. El diámetro de la fuente es de 10 metros y el zócalo tiene un metro de ancho. ¿Cuál es la superficie recubierta por el mármol?
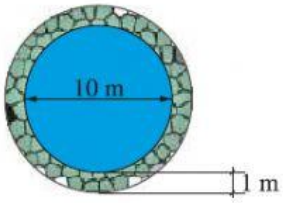
(1.25 puntos)